ŞEHİT AHMET ÖZSOY KIZ ANADOLU İMAM HATİP LİSESİ
2023 - 2024 EĞİTİM ÖĞRETİM YILI

ADI SOYADI :

T.C. KİMLİK NO :

5 SINIFLAR GİRİŞ SINAVI

1. Bu sınav 2023-2024 Eğitim-Öğretim Yılı Şehit Ahmet Özsoy Kız Anadolu İmam Hatip Lisesi'ne yerleşecek öğrencilerin kavrama düzeylerini ölçmek amacıyla hazırlanan "GİRİŞ SINAVI"dır.
2. Sınav toplam 100 sorudur. Türkçe, Matematik, Din Kültürü ve Ahlak Bilgisi, Fen Bilimleri ve Sosyal bilgiler testlerinden oluşmaktadır. Her test 20 sorudan ibarettir.
3. Soruların cevaplarını cevap kağıdında ait olduğu sütuna işaretleyiniz.

ŞEHİT AHMET ÖZSOY KIZ ANADOLU İMAM HATİP LİSESİ

2016

1. **Bu testte 20 soru vardır.**
2. **Cevaplarınızı, cevap kâğıdının Türkçe Testi için ayrılan kısmına işaretleyiniz.**

1. Aşağıdaki cümlelerin hangisinde "beslemek" **sözcüğü mecaz anlamda kullanılmıştır?**

A) Ablam evinde kuş besliyor.

B) Kuzuları elimle beslemekten hoşlanıyorum.

C) Kimseye karşı kin beslemiyorum.

D) O kadar hayvan besledim, en uysalı buydu.

2.

- Dolabın gözündeki kutuyu verir misin?
- Çocuğun gözlerinden akan yaşları görsen...
- Gözü ağrıdığı için yarın hastaneye gidecek.
- Söylediğinize göre adamın gözü yükseklerde.

Yukarıdaki cümlelerde "göz" **sözcüğü kaç farklı anlamda kullanılmıştır?**

A) 1 B) 2 C) 3 D) 4

3. Aşağıdakilerin hangisinde "acımak" **anlamında bir deyim kullanılmamıştır?**

A) Başına gelenleri görünce içimin yağı eridi.

B) Sokak çocuklarını görünce yüreğim cız eder.

C) Abimin bu hasta hâli yüreğimi sızlatıyor.

D) Kül olan ormanların karşısında benim de yüreğim yandı.

4. Aşağıdakilerin hangisinde zıt anlamlı sözcükler bir arada verilmiştir?

A) Ara sokaklar dahi çöplerle dolup taşıyordu.

B) Şehre geldiğimizden beri köy yaşamını özlüyorum.

C) Zor işleri başarabilmenin de kolay bir yolu vardır.

D) Hırsız beni karşısında görünce korkudan donup kaldı.

5. Aşağıdaki cümlelerin hangisindeki ikileme, zıt anlamlı sözcüklerle oluşturulmuştur?

A) Arapçayı üç ayda az çok öğrenmişti.

B) Dertsiz tasasız bir hayatı herkes ister.

C) Aceleden karnımı doğru dürüst doyuramadım.

D) Hısım akraba yardım etmese düze çıkamazlardı.

6.

(I) Balıklar, akvaryumun içinde bir o yana bir bu yana salına salına yüzüyordu. (II) Büyük, kırmızı Japon balığı aralarında bir yakut gibi parlıyordu. (III) Çocuk, Bal rengi bir balık daha attı aralarına. (IV) Yeni balık, akvaryumdakilerden çok utandı.

Yukarıdaki numaralanmış cümlelerin hangisinde insana ait bir özellik insan dışındaki bir varlığa aktarılmıştır?

A) I B) II C) III D) IV

7. Aşağıdakilerin hangisinde karşılaştırma <u>yoktur</u>?

A) Fabrikada ondan daha yetenekli bir işçi yoktu.

B) Ülkemizdeki en yüksek dağ Ağrı Dağı'dır.

C) Cem, sınıftaki diğer öğrencilerden uzunmuş.

D) Bu öğrenci benim için çok değerlidir.

8.

I. elbisesiyle
II. göz
III. o gece
IV. anlamıyla
V. tam
VI. kamaştırdı

Yukarıdaki sözcüklerle anlamlı ve kurallı bir cümle oluşturmak istenirse doğru sıralama hangi seçenekteki gibi olur?

A) II - V - IV – III – I – VI

B) III – V – IV – VI – II – I

C) III – I – V – IV – II – VI

D) VI – IV – II – III – I – V

Diğer sayfaya geçiniz.

9.

Televizyondaki dizilere eleştirel bir gözle baktınız mı hiç? Şiddet içeren ya da özel hayata saygı duymayan ne kadar çok dizi var. Bu diziler insanları, özellikle de çocukları olumsuz yönde etkiliyor. Televizyon izleyenlerin keyfini kaçırıyor, zamanını çalıyor. Bir iletişim aracı olan televizyon, topluma yol gösterip toplumu aydınlatmıyor. Sadece bizim beyinlerimizi uyuşturuyor.

Paragrafın ana düşüncesi aşağıdakilerden hangisidir?

A) Televizyonda izlememiz gereken çok fazla dizi vardır.

B) Televizyon izlemeye ayırdığımız zamanı azaltmalıyız.

C) Hangi dizilerin bizi olumsuz etkilediğini belirlemeliyiz.

D) Televizyon toplumu aydınlatma, topluma yol gösterme amacından sapmıştır.

10.

Güneş bazen görünüyor, bazen bulutların arasında kayboluyordu. Havadaki tatlı esinti yüzümüzü okşuyordu. Yeniden çiselemeye başlayan yağmurun sesiyle yeni bir güne başlıyorduk.

Bu parçada aşağıdaki duyuların hangisinden <u>yararlanılmamıştır</u>?

A) Görme

B) Dokunma

C) İşitme

D) Tatma

11.

Tahsin, çevresindeki arkadaşlarını sık sık ararken uzaktaki arkadaşlarını, sürekli arayamadığından yavaş yavaş unutmaktadır.

Aşağıdakilerden hangisi Tahsin'in durumunu anlatır?

A) Göz görmeyince gönül katlanır.

B) Göz görür, gönül ister.

C) Gözden ırak olan gönülden de ırak olur.

D) Gözü tanede olan kuşun ayağı tuzaktan kurtulmaz.

12.

Bazı insanlar sahip oldukları servetle övünürler. Paranın, bir insanı değerli yapacağına inanırlar. Oysa insanın değeri, davranışları ve aklı ile ölçülür.

Bu parçanın ana düşüncesi, aşağıdakilerden hangisidir?

A) Para, insanı değerli yapar.

B) Bizi önemli yapan hareketlerimiz ile zekâmızdır.

C) Para, insanları zamanla değiştirir.

D) Akıllı insanlar, parayı daha iyi değerlendirir.

13.

Ninemi anımsıyorum,
Uzun olsaydı o günler!
Yere düşen ekmek parçasını
Öpüp başıma koyduğum günler.

Bu şiirin teması aşağıdakilerin hangisidir?

A) Özlem
B) Yalnızlık
C) Sıkıntı
D) Korku

14. I. Başka bir kutu daha gerekiyor.
II. Uzun saçlı olanlar saçlarını toplasın.
III. Bana söylediği tüm yalanları yakaladım.
IV. Dün akşamki yemeği ben pek beğenmedim.

Yukarıdaki numaralanmış cümlelerin hangisinde karşılaştırma yapılmıştır?

A) I
B) II
C) III
D) IV

15. Aşağıdakilerin hangisinde kısaltmaya getirilen ek yanlış yazılmıştır?

A) Bu kazağı 960 TL'na aldım.
B) TSK'nin amaçlarından biri çevre bilinci oluşturmaktır.
C) Tren biletimi TCDD'nin sitesinden aldım.
D) MEB'in sitesinden sonuçlarıma baktım.

16. Aşağıdaki cümlelerin hangisinde virgül (,) diğerlerinden <u>farklı</u> bir görevde kullanılmıştır?

A) Biraz dinlenelim, sonra yine yürürüz.
B) Kitabı çantama koydum, trenden indim.
C) Dayım, yengem ve teyzem bize gelecekler.
D) Biraz uyuyacağım, dinlenmeye ihtiyacım var.

Diğer sayfaya geçiniz.

17. Aşağıdaki cümlelerin hangisinde sayıların yazımıyla ilgili bir yanlışlık yapılmıştır?

A) Bu siparişi 10. kata teslim edeceğim.

B) Kitabın 35'inci baskısı yapılacakmış.

C) Ay'a 2.'nci gidişleri öncekinden daha planlıydı.

D) Ben buraya gelen 7'nci kişiyim.

18. Aşağıdaki cümlelerin hangisinde yazım yanlışı yapılmamıştır?

A) Anlattığım konu da neyi anlamadın?

B) Senin karşın da çocuk yok.

C) Çocukluk yıllarınımı düşünüyorsun?

D) Ben de senin kararına katılıyorum.

19. Aşağıdaki grafikte bir köyde bahçelere dikilen çiçekler ve bunları bahçelerine diken kişilerin sayısı gösterilmiştir.

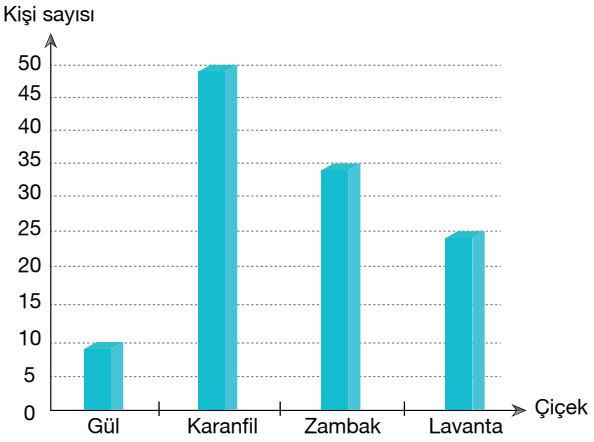

Grafiğe göre aşağıdakilerden hangisi söylenemez?

A) Bahçesine zambak dikenlerin sayısı lavanta dikenlerden fazladır.

B) En az tercih edilen çiçek güldür.

C) Lavanta dikenler ile gül dikenlerin toplamı karanfil dikenlerden azdır.

D) Köydeki herkesin bahçesinde karanfil vardır.

20. Mavi kutular, yeşil kutuların arasında olsun.

Buna göre kutuların doğru dizimi aşağıdakilerden hangisidir?

A)

B)

C)

D)

1. **Bu testte 20 soru vardır.**
2. **Cevaplarınızı, cevap kâğıdının Matematik Testi için ayrılan kısmına işaretleyiniz.**

1.



İki yüz yetmiş beş bin yüz doksan dokuz

Yukarıdaki abaküsle modellenen sayının okunuşu altında verilmiştir.

Okunuşun doğru olması için abaküse kaç tane daha boncuk eklenmesi gerekir?

A) 11 B) 12 C) 13 D) 14

2.

Yukarıda bir trenin vagon numaraları verilmiştir.

Hangi vagonun numarasındaki 7 rakamlarının basamak değerleri toplamı 7007'dir?

A) 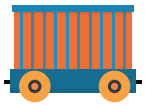

B)

C) 

D)

Diğer sayfaya geçiniz.

3. Öğretmeninin yanda sorduğu soruyu doğru cevaplayan Selim aşağıdaki işlemlerden hangisini yapmıştır?

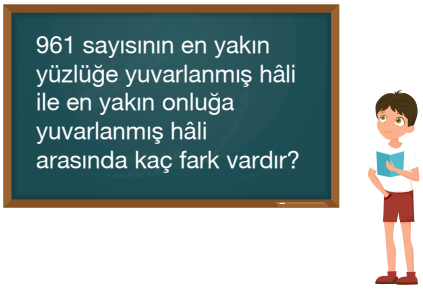

A) 960 – 900 = 60

B) 950 – 900 = 50

C) 1000 – 960 = 40

D) 1000 – 900 = 100

4.

53765	57356	63567
64675	64576	57567

Yukarıdaki sayılar küçükten büyüğe doğru sıralandığında sağdan üçüncü sayı aşağıdakilerden hangisi olur?

A) 64675 B) 63567 C) 57356 D) 53765

5.

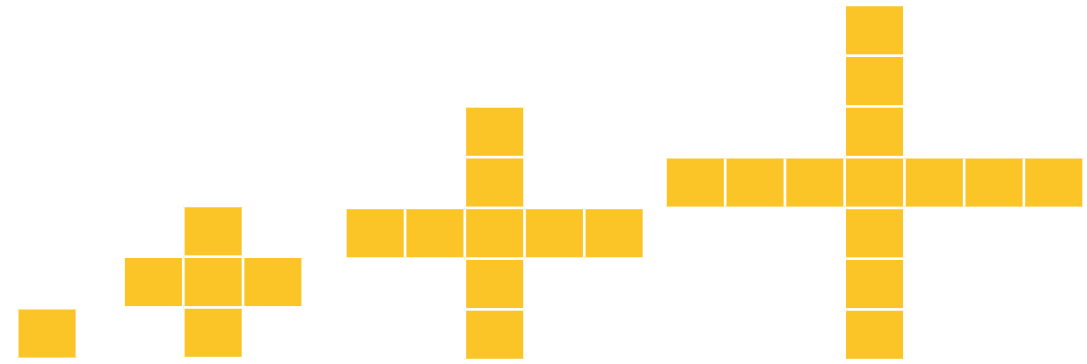

1. Adım 2. Adım 3. Adım 4. Adım

Yukarıda eş dikdörtgenlerle oluşturulan örüntünün 6. adımında kaç tane dikdörtgen kullanılır?

A) 18 B) 19 C) 20 D) 21

6.

$$\begin{array}{r} 2358 \\ 443 \\ +\quad 637 \\ \hline \square \end{array}$$

Verilen işlemin sonucuna göre aşağıdakilerden hangisi yanlıştır?

A) Sonucun, onlar ve binler basamağındaki sayılar aynıdır.

B) Sonucun, yüzler basamağındaki sayının sayı değeri 4'tür.

C) Sonucu oluşturan rakamların toplamı 20'dir.

D) Sonucun 400 eksiği 3038'dir.

7.

Çağrı'nın annesi ve babasının aylık maaşlarının toplamı 38000 TL'dir.

Çağrı'nın annesi babasından 2000 TL az maaş aldığına göre, babasının maaşının yarısı kaç TL'dir?

A) 20000 B) 18000 C) 10000 D) 9000

Diğer sayfaya geçiniz.

8. Yandaki şekilde üst üste konulmuş toplar verilmiştir. Alttaki bitişik iki topta yazan sayının çarpımı, bu toplara değen üstteki topun değerini vermektedir.

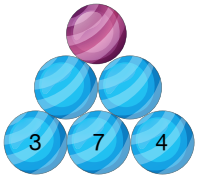

Buna göre kırmızı topa yazılacak sayının 80 fazlası kaçtır?

A) 448 B) 588 C) 598 D) 668

9.

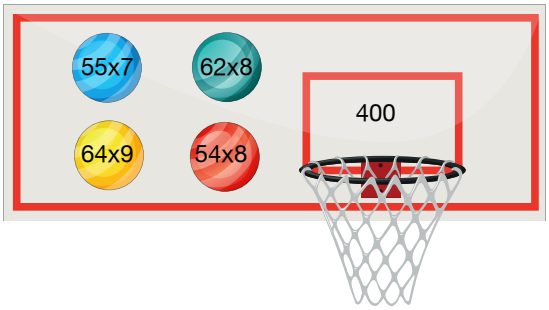

Üzerindeki çarpma işleminin sonucu potadaki sayıya en yakın olan top potadan geçecektir.

Buna göre potadan geçen top hangisidir?

A) B) C) D)

10.

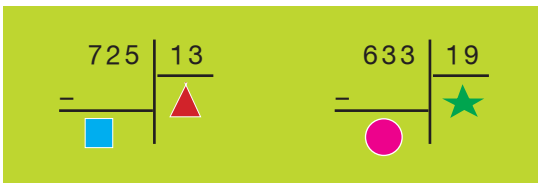

Yukarıdaki bölme işlemlerine göre, ▲ + ★ + ● toplamının ■ sayısına bölümünden kalan kaçtır?

A) 0 B) 2 C) 4 D) 6

11.

Çiçekçi Zeynep Hanım her birinin fiyatı aynı olan 10 saksı çiçeği 850 TL'ye satmıştır.

Buna göre Zeynep Hanım aynı çiçeklerden 7 saksı çiçeğin olduğu bir kasayı kaç TL'ye satar?

A) 585 B) 595 C) 605 D) 615

12.



Yukarıda verilen eşit kollu terazinin dengelenmesi için aşağıdakilerden hangisi yapılabilir?

A) Sol kefedeki 6 kg çıkartılır.

B) Sol kefedeki 2 kg sağ kefeye koyulur.

C) Sağ kefeye 2 kg eklenir.

D) Sol kefeden 2 kg çıkartılır.

13.

	Pizza	Köfte	Pide	Döner
Protein değeri	$\frac{1}{8}$	$\frac{1}{4}$	$\frac{1}{6}$	$\frac{1}{3}$

Yukarıdaki tabloda eşit miktarda verilen besinlerin protein değerleri gösterilmiştir.

Bu besinlerin protein değerlerine göre küçükten büyüğe doğru sıralanışı aşağıdakilerden hangisidir?

A) pide < pizza < köfte < döner

B) pizza < pide < köfte < döner

C) döner < köfte < pide < pizza

D) döner < köfte < pide < pizza

14. Aşağıdaki uçurtma birimkarelerle oluşturulmuştur.

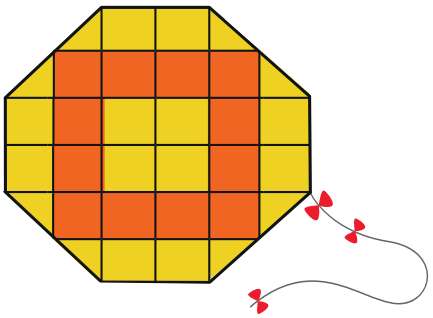

Bu uçurtmada turuncu renkle yapılan kısmın alanının $\frac{2}{6}$'si kadarı ve sarı renkle yapılan kısmın alanının $\frac{3}{8}$'ü kadarı ile kuyruk yapılacaktır.

Buna göre kuyruk için kaç birimkarelik malzeme kullanılır?

A) 10 B) 11 C) 12 D) 13

15.

Bir çiftlikteki hayvanların $\frac{9}{24}$'u tavuk, $\frac{6}{24}$'sı inek ve geri kalanı da keçidir.

Buna göre çiftlikteki keçilerin tüm hayvanların kaçta kaçı olduğunu ifade eden kesir aşağıdakilerden hangisidir?

A) $\frac{3}{24}$ B) $\frac{7}{24}$ C) $\frac{9}{24}$ D) $\frac{11}{24}$

16.

9:00'da ilk ders başladığına göre, 3 ders bittiğinde saat kaçı gösterir?

A) 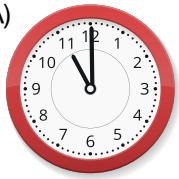

B) 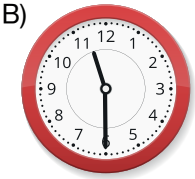

C) 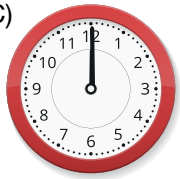

D) 

Diğer sayfaya geçiniz.

17. Duru'nun çizdiği aile boy grafiği aşağıda verilmiştir.

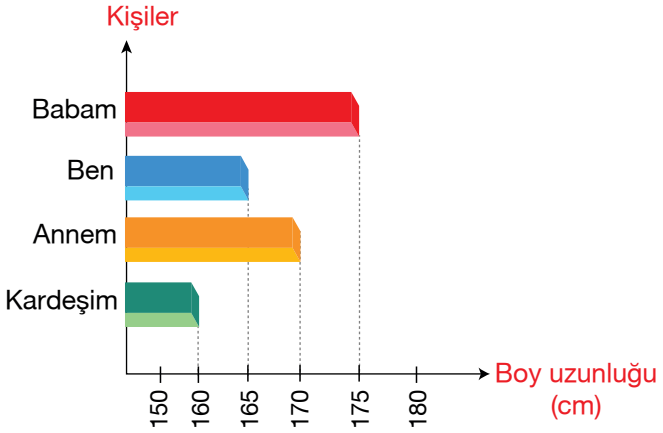

Bu grafiğe göre, Duru ile kardeşinin boy uzunlukları toplamı anne ve babasının boy uzunlukları toplamından ne kadar farklıdır?

A) 10 cm kısa B) 15 cm kısa C) 20 cm kısa D) 25 cm kısa

18.

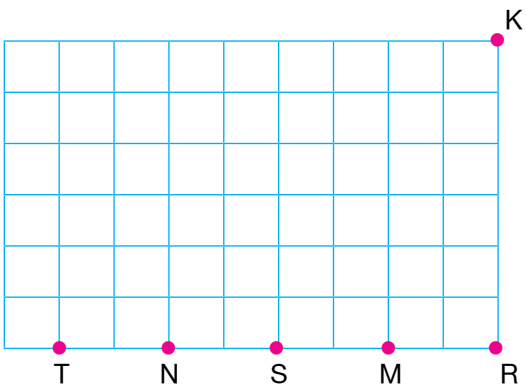

Şekilde K ve R noktalarıyla birlikte hangi nokta birleştirilirse ikizkenar üçgen elde edilir?

A) T B) N C) S D) M

Test bitti. Çözümlerinizi kontrol ediniz.

19. Birim küplerden oluşturulmuş aşağıdaki yapılardan hangisinde kullanılan birim küp sayısı farklıdır?

A)



B)



C)



D)

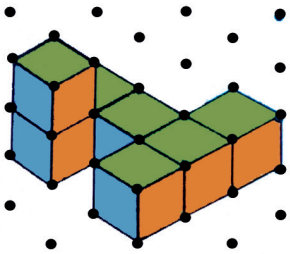

20.

Yukarıda uzunlukları 2 m 10 cm olan beş araç, dubalarla ve kendi aralarında 40 cm boşluk olacak şekilde park etmişlerdir.

Buna göre iki duba arası kaç milimetredir?

A) 12900 B) 12700 C) 12400 D) 10740

Test bitti. Çözümlerinizi kontrol ediniz.

1. **Bu testte 20 soru vardır.**
2. **Cevaplarınızı, cevap kâğıdının Din Kültürü ve Ahlâk Bilgisi Testi için ayrılan kısmına işaretleyiniz.**

1.

I. Yemeğe başlarken ..... çekeriz.

II. Bir kişiyle karşılaştığımızda ..... veririz.

III. Peygamberimizin adı anıldığında ..... getiririz.

Yukarıda cümlelerdeki boşluklar sırasıyla hangi kelimelerle tamamlanmalıdır?

A) besmele – selam – salavat

B) salavat – selam – besmele

C) besmele –salavat – selam

D) selam – salavat – besmele

2.

"Şüphesiz Allah ve melekleri Peygamber'e salât ediyorlar. Ey iman edenler! Siz de ona salât edin, selâm edin."

(Ahzab suresi, 56. ayet)

Ayette istenen davranışı yerine getirmek için aşağıdakilerden hangisi söylenmelidir?

A) Es-selamü aleyküm ve rahmetullah

B) Allahu ekber ve lillahil hamd

C) Essalâtu vesselâmu aleyke ya Rasullallah

D) La ilahe illallahu vallahu ekber

3.

Sübhâneke duası, bütün namazların ilk rekatında okunan bir duadır. Bu dua, Yüce Allah'a hamd ve övgüler içerir, onun yüceliğini dile getirir. Cenaze namazlarında da okunur. Ancak cenaze namazında okunurken '.....' ifadesi eklenerek okunur.

Sübhâneke duasına cenaze namazlarında eklenen bölüm aşağıdakilerden hangisidir?

A) ve tebâra kesmük

B) ve teâlâ ceddük

C) ve celle senâük

D) ve lâ ilâhe ğayruk

4.

I. Arkadaşlara güler yüzlü davranmak

II. Bir yere girdiğimizde selam vermek

III. Arkadaşlarımızın arkasından konuşmak

IV. Yemeğimizi paylaşmak

V. Kızdığımızda arkadaşlarımıza küfür etmek

Yukarıdaki ifadelerin "sevap" ve "günah" kavramları ile doğru eşleştirmeleri hangi seçenekte verilmiştir?

	Sevap	Günah
A)	I – II – III	IV – V
B)	I – II – IV	III – V
C)	II – III – V	I – IV
D)	II – IV – V	I – III

5. Aşağıdakilerden hangisi İslâmın beş temel şartından biridir?

A) Dua etmek

B) Zekat vermek

C) Umreye gitmek

D) Abdest almak

6.

> "Ben Allah'ın her şeyi bilen (el-Alim) olduğuna, herşeyden haberdar olduğuna (el-Habir) inanıyorum. Yani kısaca Allah'ın kendini tanıtırken kullandığı isimlerin tümünün anlamlarına inanıyorum."

Metinden Allah'ın isimleri ifadesiyle aşağıdakilerden hangisi söylenmek istenmiştir?

A) Esmaül-Hüsna

B) Esmaül-Kübra

C) Esamül-Uzmâ

D) Esmaül-Ulyâ

7.

> Hz. Muhammed (s.a.v.) şöyle buyurdu: "Her işin başı islâm, onun direği de ....."
>
> **(Tirmizi)**

Yukarıdaki hadiste boş bırakılan yere aşağıdakilerden hangisi getirilmelidir?

A) Namaz

B) Kelime-i Şehadet

C) Kur'an-ı Kerim

D) Dua

8. Öğretmen, öğrencilere Kuran'ı Kerim'de kaçar adet ayet, sure ve cüz bulunduğunu sormuş, öğrenciler de bu soruyu cevaplamışlardır.

Öğrencilerin verdiği cevaplar ve açıkladıkları kavramların doğru eşleştirmesi aşağıdakilerden hangisidir?

	Mustafa	Sabri	Seyit
A)	Ayet	Sure	Cüz
B)	Sure	Cüz	Ayet
C)	Cüz	Sure	Ayet
D)	Ayet	Cüz	Sure

Diğer sayfaya geçiniz.

9.

> İçinde yaşadığımız bu dünya henüz yokken, Yüce Allah'ın yaratılmasını istediği her şeyi yoktan var etmesi ve düzene koyması düzeni koruması ve takdir etmesi anlamında ilahî bir kanundur. O'nun ilgisi, her şeyi kuşatır. Gücün engel hiçbir şey yoktur.

Metinde açıklanan kavram aşağıdakilerden hangisidir?

A) Meleklere İman

B) Kitaplara İman

C) Ahirete İman

D) Kaza ve Kadere İman

10.

> Dayanışma ve yardımlaşma açısından, insanın ailesinden sonra en yakın sosyal çevresi komşularıdır. Gerek Kur'an ve gerekse hadislerde komşuluk ilişkilerine titizlikle değinilmiştir. Peygamberimiz komşuluk hakları konusunda, "Komşusu elinden, dilinden güvende olmayan kişi mümin sayılmaz." demiştir.

Buna göre aşağıdakilerden hangisi Peygamberimizin komşuluk hakkındaki tavsiyelerinden birisi olamaz?

A) Komşunun sıkıntılarını başkasına anlatmak

B) Evde pişen yemeklerden komşuya da vermek

C) Darda kaldıklarında yardımlarına koşmak

D) Kapıları açık kaldığında haber vermek

11. Şehit Ahmet Özsoy Kız Anadolu İmam Hatip Lisesi öğrencileri okul bahçesi ve çevresinde bulunan çöpleri toplamaya karar verdiler.

Öğrencilerin bu davranışı yapmalarını sağlayan hadis aşağıdakilerden hangisi olabilir?

A) "Allah temizdir, temizliği sever." **(Tirmizi)**

B) "Namazın anahtarı temizliktir." **(Tirmizi)**

C) "Eğer ümmetime zorluk vermeyeceğini bilseydim, her namaz için misvak kullanmalarını emrederdim." **(Müslim)**

D) "Oruçlunun ağız kokusu Allah katında misk kokusundan daha temizdir." **(Buhari)**

12.

> "Ant olsun, Allah'ın Resulünde sizin için, Allah'a ve ahiret gününe kavuşmayı uman, Allah'ı çok zikreden kimseler için güzel bir örnek vardır."
>
> **(Ahzab suresi, 21. ayet)**

Bu ayete göre güzel ahlaklı olmak isteyen bir kimse aşağıdakilerden hangisini yapmalıdır?

A) Çok kitap okumalıdır.

B) Yalnız yaşamalıdır.

C) Her gün yıkanmalıdır.

D) Peygamberimizi örnek almalıdır.

13. Kuran-ı Kerim ile ilgili aşağıdaki ifadelerden hangisi yanlıştır?

A) İlk sure Fatiha Suresi'dir.

B) En kısa sure İhlas Suresi'dir.

C) Son sure Nas Suresi'dir.

D) En uzun sure Bakara Suresi'dir.

14.

Peygamber Efendimizin doğduğu dönemde Arap kabilelerinin her birinin kendi putları vardı. Öyle ki, Kabe'de üç yüz altmış kadar put bulunmaktaydı. Ancak bu putlardan dört tanesi büyük kabul edilir ve bütün kabileler bu putlara saygı gösterirlerdi. Bunlar; Lat, Menat, Uzza ve Hubel idi.

Cahiliye döneminde Mekke ile ilgili verilmiş yukarıdaki metin aşağıdaki konulardan hangisini açıklamaktadır?

A) Mekke'de Ekonimik Yaşam

B) Mekke'de Gündelik Yaşam

C) Mekke'de Sosyal Yaşam

D) Mekke'de Dini Yaşam

15.

Peygamberimizin amcasıdır. Peygamberimizin dedesi vefat edince onu yanına almış ve evleninceye kadar birlikte yaşamışlardır.

Peygamberimizin bu yakını aşağıdakilerden hangisidir?

A) Ebu Süfyan

B) Hz. Hanife

C) Ebu Talip

D) Ebu Leheb

16.

Kabe çeşitli sebeplerle zarar görmüştü. Mekkeliler bir araya gelerek Kabe'yi onardılar. Sıra önemli bir taş olan Haceru'l-Esved'i yerine koymaya gelince her kabile bu görev için istekli oldular ve tartışmaya başladılar. Tam savaşacaklardır ki; bu sırada Kabe'ye gelen Muammed'in (s.a.v.) hakemliğini kabul ettiler.

Peygamberimizin (s.a.v.) yaşanan bu soruna getirdiği çözüm aşağıdakilerden hangisidir?

A) Bu görevi en güçlü kabileye vermiştir.

B) En zengin kabilenin bu görev için uygun olduğunu söylemiştir.

C) Kabilesi adına kendisi taşı yerine koymuştur.

D) Tüm kabilelerden birer temsilcinin beraberce koymasını önermiştir.

Diğer sayfaya geçiniz.

17. Aşağıdaki kişilerden hangisi Ehl-i Beyt içinde yer almaz?

A) Hz. Fâtıma

B) Hz. Ali

C) Hz. Hasan

D) Hz. Ömer

18.

I. "Namazın anahtarı temizliktir."
(Ebû Davud)

II. "Muhakkak ki ağzı ve burnu suyla temizlemek peygamberlerin sünnetindendir."
(Ebû Davud)

III. "Haya imandandır."
(Buhari)

Verilen hadislerden hangisinde ibadet ve temizlik ilişkisine vurgu yapılmaktadır?

A) Yalnız I

B) I ve II

C) II ve III

D) I, II ve III

19.

Mustafa Bey oğlunun odasının dağınıklığını görünce ondan odasını toplamasını istedi. Müslümanın yaşadığı yeri temiz tutması gerektiğini anlattı ve ona "....." diyerek bir atasözü hatırlattı.

Mustafa Bey'in oğluna hatırlattığı atasözü aşağıdakilerden hangisidir?

A) Üzüm üzüme baka baka kararır.

B) Çıkmadık candan ümit kesilmez.

C) Aslan yattığı yerden belli olur.

D) Ak akçe kara gün içindir.

20.

"Biriniz elinde bir fidan olduğu halde kıyamet kopacak olsa, onu dikmeye gücü yeterse diksin."

(Ahmed b. Hanbel)

Bu hadisle ilgili olarak aşağıdaki yargılardan hangisine ulaşılamaz?

A) Peygamber Efendimiz, doğal çevrenin korunması ve temiz olması için ağaç dikmeyi tavsiye etmiştir.

B) Ağaçlar tabiatın akciğerleridir. Müslüman tabiatı Allah'ın bir emaneti olarak görmeli ve onu güzelleştirmek için çaba harcamalıdır.

C) Ağaç dikmek, tabiatın güzelliğine ve temizliğine katkı sağlar.

D) Ağaç dikmek, onun meyvesinden ve odunundan faydalanmak içindir. Başka bir amaçla ağaç dikmeye gerek yoktur.

Test bitti. Çözümlerinizi kontrol ediniz.

1. **Bu testte 20 soru vardır.**
2. **Cevaplarınızı, cevap kâğıdının Fen Bilimleri Testi için ayrılan kısmına işaretleyiniz.**

1. Milyonlarca yıl önce yaşamış canlılar, uzun süre toprağın altında bekleyerek fosil yakıtları oluşturur.

Aşağıdakilerden hangisi fosil yakıtlardan <u>değildir</u>?

A)
Kömür

B)
Odun

C)
Doğal gaz

D)
Petrol

2.

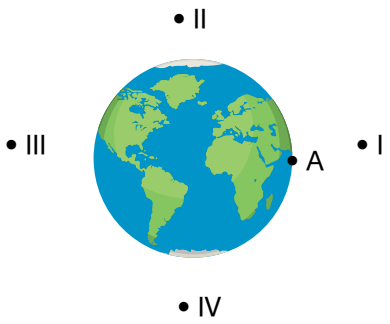

Dünya üzerindeki A noktasında gece yaşandığı bilindiğine göre, Güneş hangi noktada bulunmaktadır?

A) I B) II C) III D) IV

3. Dünya'nın Güneş'e uzaklığı, Dünya üzerindeki canlıların yaşaması için en uygun uzaklıktır.

Verilen bilgiye göre, Dünya Güneş'e çok daha yakın olsaydı aşağıdakilerden hangisi gerçekleşebilirdi?

A) Gece ve gündüz olmazdı.

B) Bütün sular donardı.

C) Mevsimler oluşmazdı.

D) Dünya'daki suların tamamı buharlaşırdı.

4.

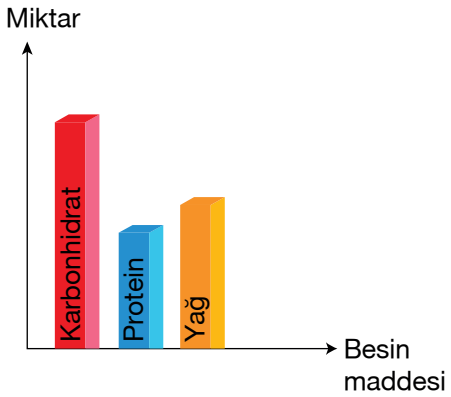

İçindeki besin maddelerinin miktarı grafikteki gibi olan bir besin için,

I. Fazla enerjiye ihtiyaç olduğunda kullanılabilir.

II. Yapıcı ve onarıcı olma özelliği vardır.

III. Besin değeri yüksek değildir.

yorumlarından hangileri yapılabilir?

A) I ve II B) I ve III

C) II ve III D) I, II ve III

Diğer sayfaya geçiniz.

5. Besinleri zararlı canlılardan korumanın yolu, o canlıların besinlerde üremesine engel olmaktadır.

Aşağıdakilerden hangisi bu yöntemlerden biri olamaz?

A) Besinlerin sıcaklığını, canlıların yaşamayacağı kadar düşürmek

B) Besinlerdeki suyu uzaklaştırmak

C) Besinlerin bulunduğu kaptaki havayı boşaltarak, havayla teması engellemek

D) Besinleri plastik poşette, oda sıcaklığında bekletmek

6. Alkol özellikle karaciğer ve diğer organların yapısını bozarak, onları çalışmaz hâle getirir. Ayrıca bırakılması zor bir alışkanlıktır.

Buna göre aşağıdaki ifadelerden hangisi yanlıştır?

A) Her gün alkol kullanmak, bağımlılık yaratmaz.

B) Alkolü bırakmak için bazen tedavi gerekir.

C) Organların yapısının bozulması birçok hastalığı beraberinde getirir.

D) Alkol, vücudu sağlıksızlaştırır.

7. Diyet yaptığını söyleyen bir kişi aşağıdakilerden hangisini yapmaktadır?

A) Karbonhidrat ağırlıklı besinlerle beslenmektedir.

B) Bol vitaminli besinlerle beslenmektedir.

C) Her çeşit besinden yeterli miktarda tüketmektedir.

D) Sadece katı yiyecekler yemektedir.

8.

Bir çubuk mıknatıs çekiçle vurularak tam ortadan iki parçaya ayrılıyor.

Buna göre parçalarla ilgili aşağıdakilerden hangisi söylenebilir?

A) Parçalardan biri N diğeri S kutbu olur.

B) İki kutuplu iki mıknatıs oluşur.

C) Parçanın biri özelliğini kaybeder.

D) Mıknatıslık özelliğini kaybederler.

9. Aşağıdaki davranışlardan hangisi aile bütçesine ve ülke ekonomisine katkı sağlar?

A) Küçük odalarda aydınlatma aracı sayısının artırılması

B) Koridorlarda harekete duyarlı lambaların açık bırakılması

C) Kullanılmayan alanlardaki lambaların açık bırakılması

D) Sokak lambalarının günün her saatinde ışık verecek şekilde ayarlanması

10.

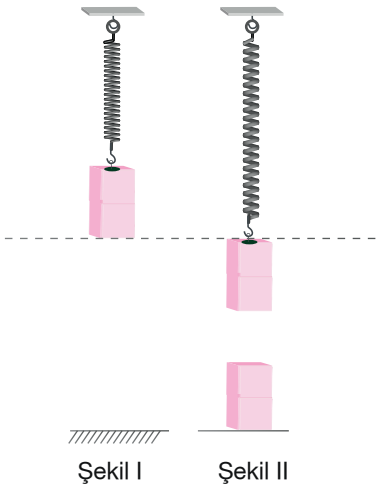

Bir mıknatıs Şekil I'deki gibi tavandan yayla asılıyor. Mıknatıs bu konumdayken altına başka bir mıknatıs yerleştiriliyor. Asılı olan mıknatısın son durumu Şekil II'deki gibi oluyor.

Buna göre mıknatısın ile ilgili,

I. Mıknatısın kütlesi artmıştır.

II. Mıknatısların zıt kutupları karşılıklı yerleştirilmiştir.

III. Asılı mıknatısa temas gerektirmeyen kuvvet etki etmiştir.

ifadelerinden hangileri söylenebilir?

A) I ve II

B) I ve III

C) II ve III

D) I, II ve III

11. Can, kâğıdın üzerine ataş, zımba teli, iğne ve silgi koyuyor. Daha sonra kâğıdın altında bir mıknatıs gezdiriyor.

Buna göre Can, hangi cisimlerin hareket ettiğini gözler?

A) Yalnız iğne

B) Ataş ve iğne

C) Silgi ve zımba teli

D) Ataş, zımba teli ve iğne

12.

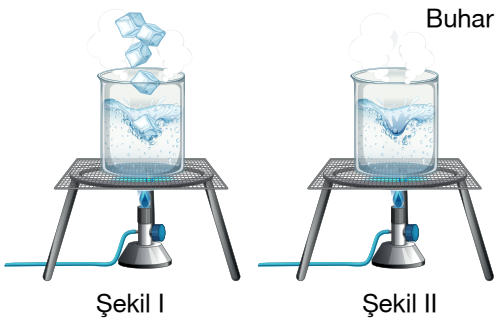

Buz parçaları şekil I'deki gibi bir kaba koyulup ısıtılıyor. Daha sonra Şekil II'deki gibi kaptan buhar çıktığı gözlemleniyor.

Buna göre madde ile ilgili aşağıdakilerden hangisi söylenebilir?

A) Eriyen buz bir süre sonra katı hâle geçmiştir.

B) Buzlar ısı etkisiyle hâl değiştirmiştir.

C) Su, sıvı hâlde gözlemlenmemiştir.

D) Buhar ısı alarak sıvılaşmıştır.

Diğer sayfaya geçiniz.

13.

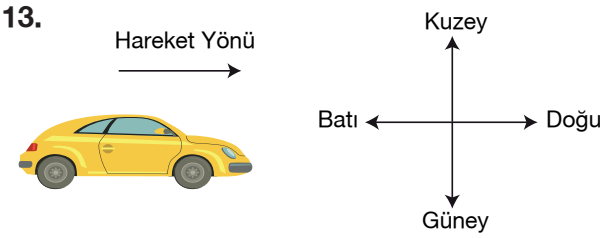

Şekildeki aracın yapacağı hareketleri sağlayacak kuvvetlerin yönü aşağıdakilerden hangisindeki gibi olabilir?

	Hızlanma	Yavaşlama	Yön Değiştirme
A)	Doğu	Güney	Kuzey
B)	Batı	Doğu	Kuzey
C)	Batı	Doğu	Güney
D)	Doğu	Batı	Güney

14. Hangi seçenekteki aydınlatma teknolojilerinin icat ediliş sırası doğrudur?

A) Meşale, mum, ampul, floresan lamba

B) Meşale, mum, el feneri, gaz lambası

C) Mum, neon lamba, gaz lambası, el feneri

D) Kandil, mum, el feneri, ampul

15. Göz sağlığı için aşağıdaki davranışlardan hangisi yapılmalıdır?

A) Gözümüzü, toz kaçtığında ovuşturmak

B) Işığı çok fazla olan ortamda kitap okumak

C) Kitap okurken ışığın gözümüze doğrudan gelmesini sağlamak

D) Doğrudan, çıplak gözle güneşe bakmamak

16.

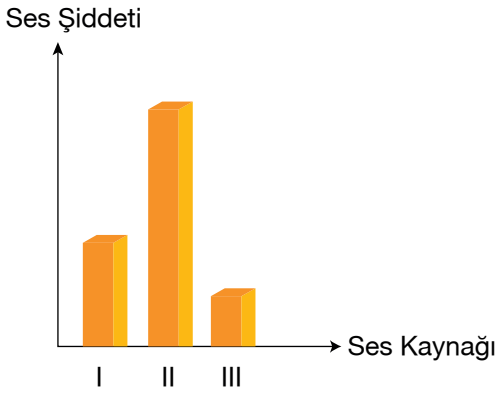

Ses şiddeti yukarıdaki gibi olan üç ses kaynağı aşağıdakilerden hangisi olabilir?

	I	II	III
A)	Konuşma	Fısıltı	Jet uçağı
B)	Konuşma	Jet uçağı	Fısıltı
C)	Jet uçağı	Konuşma	Fısıltı
D)	Jet uçağı	Fısıltı	Konuşma

17. Besinlerle ilgili;

- Açıkta bırakılan ekmeğin kuruması,
- Kesilmiş karpuz bulunan tabakta karpuz suyu birikmesi,
- Sıkılan portakaldan portakal suyu elde edilmesi.

gözlem sonuçlarından yola çıkarak aşağıdakilerden hangisine ulaşılabilir?

A) Besinlerin yapısına protein vardır.

B) Besinlerin yapısında bakteriler vardır.

C) Besinlerin yapısında su vardır.

D) Besinlerin yapısında yağ vardır.

18.

Geri dönüşüm ile ilgili,

I. Bazı maddelerin tekrar kullanılmasını sağlar.

II. Enerji tasarrufu sağlar.

III. Daha çok çöp oluşmasını sağlar.

ifadelerinden hangileri doğrudur?

A) I ve II

B) I ve III

C) II ve III

D) I, II ve III

19. Aşağıdakilerden hangisi ses kayıt cihazıdır?

A) Fonograf

B) Megafon

C) Televizyon kumandası

D) Mikrofon

20. Bir elektrik devresini şehir trafiğine benzetebiliriz. Bir fabrika mal üretiliyor ve şehrin diğer ucundaki mağazaya gönderiyor. Malı kamyonlar taşıyor. Mağazaya giderken kamyonlar köprüden geçiyor ve yüklerini boşaltıp fabrikaya dönüyor.

Buna göre aşağıda verilen benzetmelerden hanisi yanlış olur?

A) Yollar: kablo

B) Fabrika: pil

C) Köprü: anahtar

D) Kamyon: ampul

Test bitti. Çözümlerinizi kontrol ediniz.

1. **Bu testte 20 soru vardır.**
2. **Cevaplarınızı, cevap kâğıdının Sosyal Bilgiler Testi için ayrılan kısmına işaretleyiniz.**

1. "T.C. Kimlik Kartı" **hangi bakanlık tarafından verilir?**

A) İçişleri Bakanlığı

B) Milli Savunma Bakanlığı

C) Milli Eğitim Bakanlığı

D) Dışişleri Bakanlığı

2. I. 19 Mayıs 1919'da Samsun'a çıktı.

II. Türkiye Cumhuriyeti'nin ilk Cumhurbaşkanı oldu.

III. Selanik'te doğdu.

IV. Çanakkale'de Anafartalar Grup Komutanlığı'na atandı.

V. Selanik Askeri Rüştiyesi'ne girdi.

VI. Afyon Kocatepe'den Büyük Taarruz'u yönetti.

M. Kemal Atatürk'ün hayatıyla ilgili kronolojik sıralama aşağıdakilerden hangisinde doğru verilmiştir?

A) III – IV – V – II – VI – I

B) III – VI – II – I – IV – V

C) III – V – IV – I – VI – II

D) III – II – I – IV – V – VI

3.

Fatih: Öğretmenim okul gazetesi çıkarmak için beni görevlendirdi. Çok mutlu oldum. Okumayı, yazmayı çok seviyorum. İleride gazeteci olmak istiyorum.

Fatih kendisiyle ilgili,

I. İlgi alanları

II. Duyguları

III. Fiziksel özellikleri

bilgilerinden hangilerini vermiştir?

A) I ve II

B) I ve III

C) II ve III

D) I, II ve III

4.

Davut, dedesiyle yaptığı sözlü tarih görüşmesinde, dedesine çeşitli sorular yöneltti. Dedesinin ailesi Trabzon'dan Kırşehir'e göç etmişti. Dedesi 1970 yılında Akçakent'te iki katlı bir evde doğmuştu. Savaş yılları olduğundan insanlar büyük sıkıntıdaydı. Yiyecek, giyecek bulmak zordu.

Buna göre Davut dedesine aşağıdaki sorulardan hangisini <u>sormamıştır</u>?

A) Nerede doğdun?

B) Hangi savaş yaşanıyordu?

C) İnsanlar nasıl yaşıyordu?

D) Ailen Kırşehirli miydi?

5.

> Bir çember oluşturan çocuklar el çırparak tekerleme söyler. Ebe, dairenin etrafında dolaşarak birinin arkasına mendili bırakıp kaçar. Arkasına mendil bırakılan kişi ebeyi yakalamaya çalışan kişinin yerine geçmek için koşar.

Anlatılan oyun aşağıdakilerden hangisidir?

A) Bezirgânbaşı

B) Körebe

C) Yağ satarım bal satarım

D) Çember çevirme

6. Bu antlaşma ile Türkiye'nin sınırları belirlendi ve bağımsız bir devlet olduğumuz tüm dünyaya kabul ettirildi.

Sözü edilen antlaşma aşağıdakilerden hangisidir?

A) Mondros Ateşkes antlaşması

B) Lozan Barış Antlaşması

C) Ankara antlaşması

D) Gümrü antlaşması

7. TBMM, hangi şehrimize "Gazi" **unvanı vermiştir?**

A) Antep

B) Maraş

C) Urfa

D) Adana

8. Aşağıdakilerden hangisi Ankara'nın ilçesi <u>değildir</u>?

A) Kalecik

B) Evren

C) Güdül

D) Sivrihisar

9.

Haritada verilen sembollere göre aşağıdakilerden hangisi <u>söylenemez</u>?

A) Kuzeybatıda kar yağışı görülmektedir.

B) Güney ve batıda hava güneşlidir.

C) Kuzeydoğuda yağmur görülmektedir.

D) İç kesimlerde sis vardır.

Diğer sayfaya geçiniz.

10.

> 1950 yılında İskoçyalı bir doktor ses dalgaları yoluyla anne karnındaki bebeğin iç organlarının görülebileceğini ortaya çıkarmıştır.
>
> Günümüzde "ultrason" adı verilen bu işlem anne karnındaki bebeklerin sağlık durumunu kontrolde kullanılmaktadır.

Buna göre ultrasonla ilgili aşağıdakilerden hangisi söylenebilir?

A) Ultrason sağlık alanında bir teknolojik gelişmedir.

B) İskoçyalı doktorun buluşu zamanla unutulmuştur.

C) Ülkemizde kullanılmamaktadır.

D) Ultrason beyin hastalıklarının teşhisi için de kullanılmaktadır.

11. Aşağıdakilerden hangisi fiziki haritaların temel işlevini anlatmaktadır?

A) Bir yeri konumunu bulmada kolaylık sağlar.

B) Yönleri saptamamızda yardımcı olur.

C) Yer şekillerini yani dağları, ovaları, vadileri belirlememizi sağlar.

D) Komşu ülkeleri görmemizi sağlar.

12. I. Zabıta

II. Polis

III. Temizlik Görevlisi

IV. Simitçi

Yukarıdakilerden hangisi pazar yerlerini ve gıda satan iş yerlerini denetleyen görevlidir?

A) I B) II C) III D) IV

13. "Bir hırkaya ihtiyacım var. Alışverişte nelere dikkat etmeliyim?"

Nurten'e alışverişinde yardımcı olmak isteyen arkadaşlarından hangisi ona yanlış bilgi vermiştir?

A) Rengine ve dokumasına dikkat etmelisin.

B) Son kullanma tarihine bakmalısın.

C) Bedenine uygun olanı almalısın. Mutlaka üzerinde denemelisin.

D) Beğenmediğinde değiştirebilmen için fiş ya da fatura almalısın.

14.

	Satranç	İzcilik	Kütüphane	Gezi
Mert		✔		✔
Ali	✔	✔		✔
Mete	✔	✔	✔	

Yukarıda Mert, Ali ve Mete'nin üye oldukları kulüpleri gösteren bir tablo verilmiştir.

Verilen tabloya göre aşağıdakilerden hangisi söylenemez?

A) Mert ve Ali Gezi Kulübü'ne üyedir.

B) Ali ve Mete Satranç Kulübü'ne üyedir.

C) Mert Kütüphane, Mete Gezi Kulübü'ne üyedir.

D) Üçünün de ortak üye olduğu kulüp İzcilik Kulübü'dür.

15.

Afrika ülkelerinin bazılarında ekonomik ve coğrafi koşullar nedeniyle her gün yüz binlerce çocuk açlık, sağlık sorunlarıyla karşı karşıyadır. Bu çocuklar ölüm riski altında yaşamlarını sürdürmektedir.

Yukarıdaki metinde Afrika ülkelerinde yaşayan bu çocukların hangi haklarının ihlal edildiği ile ilgili bir bilgiye yer verilmemiştir?

A) Sağlık

B) Yeterli beslenme

C) Eğitim

D) Yaşama

16.

"Merhaba benim adım Olanike, ülkemin adı Nijerya. Burada İngilizce konuşulmaktadır. En çok yulafla yapılan ve bir tür lapa olan eba'yı yeriz. Arkadaşlarımla okuldan sonra en büyük hobimiz olan futbol oynarız."

Olanike ülkesinin,

I. Dili

II. Yöresel yemeği

III. Sosyal etkinlikleri

özelliklerinden hangileri ile ilgili bilgi vermiştir?

A) I ve II

B) I ve III

C) II ve III

D) I, II ve III

17. Aşağıdaki gümrük kapılarımızdan hangisi Gürcistan ile olan kara bağlantısı üzerindedir?

A) Habur

B) Sarp

C) İpsala

D) Kapıkule

Diğer sayfaya geçiniz.

18. Aşağıdakilerden hangisi Türkiye ile aynı kıtada bulunan bir ülke <u>değildir</u>?

A) Çin
B) Rusya
C) Avustralya
D) Hindistan

19.


GARANTİ BELGESİ

Bu belge 6502 sayılı tüketicinin korunması hakkında kanun ve bu kanuna dayanılarak yürürlüğekonulan garanti belgesi uygulama esaslarına uygun olarak düzenlenmiştir.

İMALATÇI VEYA İTHALATÇI FİRMA

Ünvan :
Adres :

Telefon :
Mail :

Yukarıdaki belgeyle ilgili olarak hangisi <u>söylenemez</u>?

A) Garanti süresi içinde arızalanan ürüne ücretsiz tamir servisi sağlarlar.

B) Üründe bir sorun çıkarsa ürünü değiştirmemizi sağlar.

C) Tüketiciye haklarını koruma konusunda yardımcı olur.

D) Ürünleri ücret ödemeden almamızı sağlar.

20.

> Kâğıt genellikle ağaçtan elde edilen bir tüketim malzemesidir. Bu nedenle kâğıdın israf edilmesi daha fazla ağacın kesilmesi anlamına gelmektedir.

Aşağıdakilerden hangisi kâğıt israfını azaltmak için yapmamız gerekenlerden biri <u>değildir</u>?

A) Kâğıdın her iki tarafını da kullanmak

B) Kullanılmış kağıtları yakmak

C) Kağıdın üzerindeki gereksiz yazıları silip tekrar kullanmak

D) Kullanılmış kâğıtları geri dönüşüm kutusuna atmak

Test bitti. Çözümlerinizi kontrol ediniz.

ŞEHİT AHMET ÖZSOY KIZ ANADOLU İMAM HATİP LİSESİ

2016

2023 5.SINIF ÖĞRENCİ SEÇME SINAVI CEVAP ANAHTARI					
SORU NO	TÜRKÇE	MATEMATİK	DİN KÜLTÜRÜ	FEN BİLİMLERİ	SOSYAL B.
1	C	D	A	B	A
2	C	A	C	C	C
3	A	C	C	D	A
4	C	B	B	A	B
5	A	D	B	D	C
6	D	C	A	A	B
7	D	C	A	C	A
8	C	D	C	B	D
9	D	A	D	B	D
10	D	C	A	C	A
11	C	B	A	D	C
12	B	B	D	B	A
13	A	İPTAL	B	D	B
14	B	A	D	A	C
15	A	C	C	D	C
16	C	B	D	B	D
17	C	C	D	C	B
18	D	B	B	A	C
19	D	D	C	A	D
20	B	A	D	D	B

Matematik testi 13. sorunun **C ve D şıkkının aynı olması** nedeniyle **İPTALİNE** ancak iptal edilen sorunun tüm adaylar için DOĞRU kabul edilmesine, karar verilmiştir.