ŞEHİT AHMET ÖZSOY KIZ ANADOLU İMAM HATİP LİSESİ (ORTAOKUL KISMI) 2019-2020 EĞİTİM–ÖĞRETİM YILI

5. SINIFLAR GİRİŞ SINAVI

ADI - SOYADI:

T.C. KİMLİK NO:

1. Bu sınav 2019-2020 Eğitim-Öğretim Yılı ŞEHİT AHMET ÖZSOY KIZ ANADOLU İMAM HATİP LİSESİ Ortaokul Kısmına yerleşecek öğrencilerin kavrama düzeylerini ölçmek amacıyla hazırlanan "GİRİŞ SINAVI"dır.
2. Sınav toplam 100 soru ve Türkçe, Matematik, Din Kültürü ve Ahlak Bilgisi, Fen Bilimleri ve Sosyal Bilgiler testlerinden oluşmaktadır. Her test 20 sorudan ibarettir.
3. Soruların cevaplarını Cevap Kağıdında ait olduğu sütuna işaretleyiniz.
4. Cevap Kağıdında, Adı-Soyadı, T.C. Kimlik Numarası ve Öğrenci No. bölümlerini kodlamayı unutmayınız.

SINAVA BAŞLAMADAN ÖNCE AŞAĞIDAKİ UYARILARI MUTLAKA DİKKATLİCE OKUYUNUZ

1. Sınav kimlik bilgilerinizin doğruluğundan emin olunuz.
2. Sınav başladıktan sonra çevrenizdekilerle konuşmayınız.
3. Soruları cevaplamaya istediğiniz sorudan başlayabilirsiniz.
4. Cevaplarınızı cevap anahtarındaki ilgili soru numarasını dikkate alarak uygun bölüme kodlayınız.
5. Değiştirmek istediğiniz cevabı cevap anahtarına kodladığınızdan emin olunuz.
6. Cevabını bilmediğiniz sorular üzerinde fazla zaman kaybetmeden diğer sorulara geçiniz. Zaman kalırsa bu sorulara daha sonra dönebilirsiniz.
7. Sınav puanlarınızın hesaplanmasında sadece doğru cevaplarınız dikkate alınacaktır.
8. Cevap anahtarınızı sınav süresince başkalarının görmeyeceği şekilde önünüzde bulundurunuz.
9. Sınav sırasında sözlük, hesap makinası, cep telefonu ve bilgisayarınızın bu özelliklerini kullanmayınız.
10. Sınav süresince yerinizden ayrılmayınız.

1. Bu temmuz günü can sıkıntısından patlıyorum.

Bu cümledeki altı çizili sözcüğün anlamı aşağıdakilerden hangisidir?

A) Çoğunlukla büyük ses çıkararak dağılmak
B) Ansızın bir gürültü duyulmak
C) Görünür duruma gelmek, ortaya çıkmak
D) Çok sıkılmak

2. Kasabalı çocuklar çay kenarında misafirlerle balık avlıyordu.

Bu cümlede altı çizili sözcüklerden hangisi sesteştir?

A) Kasabalı
B) Çay
C) Misafirlerle
D) Balık

3. **Aşağıdaki cümlelerin hangisinde karşılaştırma yapılmıştır?**

A) Mart, geçen ay kadar soğuk değil.
B) Babam eve bir kedi yavrusu getirdi.
C) Yangında ormanlık alan zarar gördü.
D) Kahvaltıyı beş dakikada hazırladı.

4. **Aşağıdaki cümlelerin hangisinde uyarı anlamı vardır?**

A) Kendime yeni bir kitap alacağım.
B) Telefonun düştüğü için bozulmuş olabilir.
C) Oğlumu okuldan almaya gidiyorum.
D) Trafik kurallarına uyun, emniyet kemerini takın.

5. Aşağıdaki cümlelerin hangisinde öznel bir yargı vardır?

A) Antalya'ya gelen turist sayısı bu yıl daha da arttı.

B) Günlerimi kitap okuyarak geçiriyorum.

C) Köyümüz tarif edemeyeceğim kadar güzeldir.

D) Kızım bu ay yirmi yaşına girecek.

6. Aşağıdakilerin hangisinde "Başka bir iş yapmasına zaman ve fırsat vermemek" **anlamında bir deyim kullanılmıştır?**

A) Öğrencilerine hiç göz açtırmadı, sürekli ders anlattı.

B) Öğretmenin anlattıklarını can kulağıyla dinlemeliyiz.

C) Arkadaşlarının yolunu dört gözle bekliyordu.

D) Çok şanslısın, kısmetin ayağına geldi.

7. Aşağıdakilerin hangisinde altı çizili sözcük aldığı ek nedeniyle yeni bir anlam kazanmıştır?

A) Bu sabah demlediğimiz <u>çaylar</u> çok güzel olmuş.

B) Doğru söz <u>yemin</u> istemez.

C) Vatan <u>borcu</u> çalışmakla biter.

D) <u>Vatandaşlık</u> görevlerimizi unutmayalım.

8. Aşağıdaki cümlelerin hangisinde kişileştirme yapılmıştır?

A) Teleferik, bu istasyonların arasında havaya gerilmiş çelik halatlar ve bu halatlara asılı bir kabinden oluşur.

B) Kabin, yük ya da yolcu taşımak üzere tasarlanmış olabilir.

C) Teleferikler, genellikle kayak merkezlerinde kullanılır.

D) Teleferik, iki istasyon arasında sabırla çalıştığı için çok mutludur.

9. Nerede o güzel güneşli günler?
Nerede o çiçek kokulu bahçeler?
Güneş, çiçek, bahçe nerede?
Burnumda tütüyor o güzel günler.

Bu şiirin ana duygusu aşağıdakilerden hangisidir?

A) Pişmanlık
B) Yalnızlık
C) Özlem
D) Yaşama sevinci

10. Konuşmaya başladığımızda zamanı boşa harcadığımızdan zamanı iyi değerlendiremediğimizden şikayet ediyoruz. Acaba bu söylediklerimizin gerçekten farkında mıyız? Parayla satın alamadığımız, biriktiremediğimiz, durduramadığımız zaman, su gibi akıp gidiyor. Daha ne duruyoruz? Bence içinde bulunduğumuz zamanı değerlendirerek işe başlayalım.

Bu metinde asıl anlatılmak istenen aşağıdakilerden hangisidir?

A) Para zamandan daha kıymetlidir.
B) Zaman parayla satın alınamaz.
C) Zamanı biriktirmek mümkün değildir.
D) Zamanın değerini bilelim.

11. Aşağıdaki cümlelerin hangisinde büyük harflerin kullanımıyla ilgili bir yanlışlık vardır?

A) Öğretmen Murat Bey, öğrencilerini müzeye götürdü.
B) Kedimiz pamuk bizi görünce çok sevindi.
C) Bu hafta Küçük Prens adlı kitabı okudum.
D) Mektubu Ankara'daki amcama yazıyorum.

12. Aşağıdaki cümlelerin hangisinde amaç-sonuç ilişkisi vardır?

A) Kütüphaneye yeni kitaplar alınmış.
B) Otobüsteki yaşlı teyzeye yer vermek için ayağa kalktım.
C) Türkçe dersini daha çok seviyorum.
D) Şair duygularını şiire çok iyi yansıtmış.

13. Çok cana yakın bir doktordu. Ankara'da onu tanımayan yoktu. Müsait olduğu zamanlar yanına gider, çayını içerdim. Hastalarını ayakta karşılar, onlara oldukça kibar davranırdı. Onlarla misafirleriyle ilgilenir gibi konuşur, sohbet ederdi. Onları tatlı dille karşılar, güler yüzle uğurlardı.

Bu metinde doktorun hangi özelliği daha çok vurgulanmıştır?

A) Başarılarının herkes tarafından bilindiğine

B) Doktorluğunda çok başarılı olduğuna

C) Samimi, insancıl bir kişiliği olduğuna

D) Dünyaca tanınan bir doktor olduğuna

14. **Aşağıdaki cümlelerin hangisinde hayal ürünü ifadelere yer verilmiştir?**

A) Bir genç ormanda yürüyor, keyifle şarkılar söylüyormuş.

B) Farkına varmadan evinden oldukça uzaklaşmış.

C) Kaybolduğunu anlayınca "Beni kurtarın!" diye bağırmış.

D) Ormandaki kuşlar "Evinden uzaklaşmasaydı, başına böyle bir şey gelmezdi." demiş.

15. **Aşağıdaki metinlerin hangisinde betimleme yapılmıştır?**

A) Bilmediği konu yoktu. Her konu hakkında yorum yapabilirdi. Ona göre bilmediği, yapamayacağı iş yoktu.

B) Sanatçı, bir milletin geleceğidir. Toplumun can damarı, en önemli unsurlarından biridir.

C) Masal, hayatımızı güzelleştirir. Masal dinlerken ruhumuz dinlenir, huzur buluruz.

D) Havanın serin olacağını düşünerek kırmızı kazağımı yanıma alıp evden çıktım. Dar sokaklardan yürüyerek okuluma ulaştım.

16. **Aşağıdaki cümlelerin hangisinde kısa çizgi (-) yanlış kullanılmıştır?**

A) Türkçe - İngilizce sözlüğe bakıp, yeni kelimeler öğreniyor.

B) Bu sözcükler kök ve eklerine şöyle ayrılır: kitap-lık, simit-çi

C) Hoşgörülü - kültürlü - eğitimli bir hanımefendiydi.

D) Kelimeyi hecelerine şöyle ayırmalıyız: sa-at-çi-lik

17. 1. Yaptığım resimleri yine beğeniyorlar.
2. Şimdi elli yaşıma yaklaştım.
3. Gençlik dönemimde yaptığım resimleri herkes beğeniyordu.
4. Çünkü duygularımın coşkusu renklere yansıyordu.
5. İnanıyorum yıllar sonra yapacaklarımı da herkes beğenecektir.

Numaralanmış cümlelerle anlamlı bir metin oluşturulduğunda sıralama nasıl olur?

A) 1-2-3-4-5
B) 5-2-4-1-3
C) 3-4-2-1-5
D) 4-3-2-5-1

18. Bir sabah erken uyandı. İçinde farklı bir heyecan vardı. Sınav sonuçlarının erken açıklanacağı söyleniyordu. Sonuçlar hakkında bilgi almak için haberlere bakıyordu. Açık pencereden parkta oynayan çocukların sesi geliyordu.

Bu metnin türü aşağıdakilerden hangisidir?

A) Fabl
B) Hikaye
C) Masal
D) Haber metni

19. Cahit Arf, 1910-1977 yılları arasında yaşamış dünyaca ünlü matematikçi. Kendi adıyla anılan "Arf Sabiti", "Arf Kapanışları" gibi terimleri bularak matematik ve bilim dünyasına önemli katkılarda bulundu.

Bir süre Galatasaray Lisesinde matematik öğretmenliği yaptı. 1964 yılında Türkiye Bilimsel ve Teknik Araştırma Kurumu (TÜBİTAK) ilk bilim kurulu başkanı oldu. 1980 yılında emekli oldu. TÜBİTAK'ın geliştirilmesinde çok emeği geçti. 1983-1989 yılları arasında Türk Matematik Derneği Başkanlığı yaptı.

Bu metinde "Cahit Arf" ile ilgili aşağıdakilerden hangisine <u>değinilmemiştir</u>?

A) Kendi adıyla anılan terimlere
B) Bilim dünyasına olan katkılarına
C) Nerelerde görev yaptığına
D) Çalışırken aldığı ödüllere

20. Şehrin sıcağından ve gürültüsünden sıkılan insanlar, biraz dinlenmek için sakin bir kasabaya sığınmışlardı.

Bu cümlede aşağıdaki sorulardan hangisinin cevabı yoktur?

A) Nereye **B)** Kim
C) Niçin **D)** Nasıl

1. **Aşağıdaki işlemlerden hangisinin sonucu 36x36 işleminin sonucuna eşittir?**

A) 72x18 **B)** 40x32
C) 46x26 **D)** 56x16

2. **Her sınıfında 30 öğrenci bulunan bir okuldaki öğrenci sayısı aşağıdakilerden hangisi olabilir?**

A) 350 **B)** 430
C) 450 **D)** 590

3. Songül ve Hülya'nın içinde 20 adet bilye bulunan bir torbadan bilye çekerek oynadıkları oyunun kuralları aşağıda verilmiştir:

* Songül birinci adımda torbadan ya 1 ya da 6 tane bilye çeker ve sıra Hülya'ya geçer.
* Hülya ikinci adımda torbadan ya 1 ya da 6 tane bilye çeker ve sıra Songül'e geçer.
* Sırası gelen oyuncu her adımda benzer şekilde torbadan bilye çeker.
* Çekilen bilyeler torbaya geri konulmaz ve torbadaki tüm bilyeler çekildiğinde oyun biter.

Oyun 10. adım sonunda bittiğine göre, oyuncular toplam kaç kere 1 tane bilye çekmişlerdir?

A) 2 **B)** 4
C) 6 **D)** 8

4.

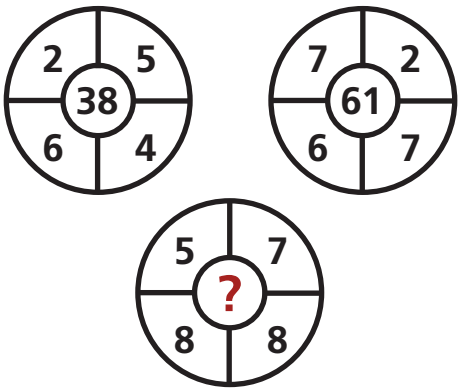

Yukarıdaki şekilde soru işaretinin bulunduğu yere hangi sayı gelmelidir?

A) 28 **B)** 49
C) 96 **D)** 99

5.

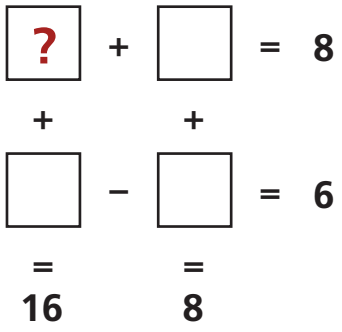

Yukarıdaki şekilde soru işaretinin bulunduğu yere hangi sayı gelmelidir?

A) 3 **B)** 4
C) 5 **D)** 6

6.

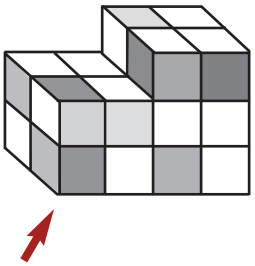

Yukarıdaki yapıya ok yönünde bakıldığında hiçbir yüzü <u>görünmeyen</u> kaç küp vardır?

A) 4 **B)** 5
C) 6 **D)** 7

7.



Yukarıdaki şekilde alttaki iki tuğlanın üzerinde yazan sayıların toplamı, üstteki tuğlaya yazılıyor.

Buna göre aşağıdaki sayılardan hangisi tuğlalarda yazan sayılardan biri <u>değildir</u>?

A) 3 **B)** 4
C) 6 **D)** 7

8.

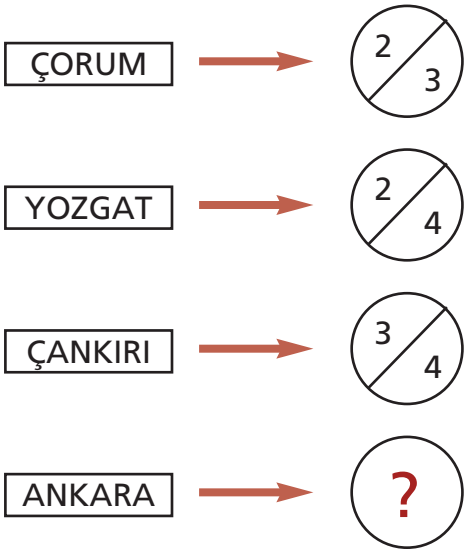

Yukarıdaki verilenlere göre soru işareti yerine aşağıdakilerden hangisi gelmelidir?

A) 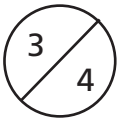

B) 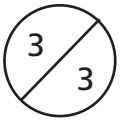

C) 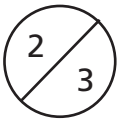

D) 

9. Türkiye'nin en küçük beş ilçesinin nüfusları aşağıdaki tabloda gösterilmektedir.

Tablo: *En Küçük Beş İlçenin Nüfusu*

İlçe	*Nüfus*
Çelebi	2014
Yenişarbademli	2096
Han	1953
Yayladere	1928
Yalıhüyük	1533

Tabloya göre aşağıdakilerden hangisi doğrudur?

A) Han ilçesinin nüfusunun en yakın yüzlüğe yuvarlanmış hali 1950'dir.

B) Çelebi ve Yenişarbademli ilçelerinin nüfuslarının en yakın yüzlüğe yuvarlanmış halleri eşittir.

C) Yayladere ilçesinin nüfusunun en yakın yüzlüğe yuvarlanmış hali ile en yakın binliğe yuvarlanmış hali eşit değildir.

D) Yalıhüyük ilçesinin nüfusunun en yakın onluğa yuvarlanmış hali 1540'tır.

10. Zehra 3578 TL parasının önce 1469 TL'sini, sonra 1072 TL'sini harcamıştır.

Buna göre geriye kaç TL parası kalmıştır?

A) 1147

B) 1137

C) 1047

D) 1037

11. Bir film 21.45'te başlamış ve 3 defa on beşer dakikalık reklam verilerek 00.00'da bitmiştir.

Bu film reklamsız olarak verilseydi kaç dakika sürerdi?

A) 75

B) 90

C) 105

D) 120

12.

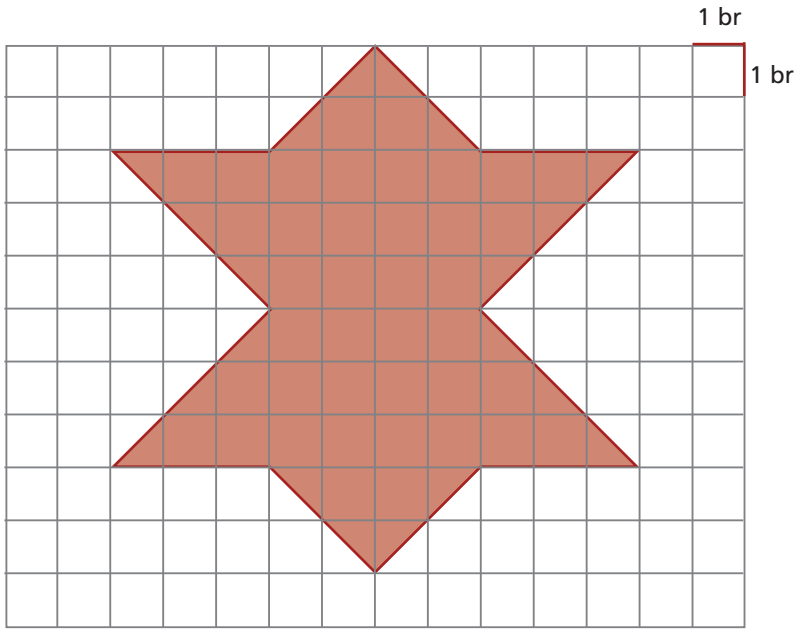

Yukarıda verilen şeklin alanı kaç birimkaredir?

A) 52 **B)** 50 **C)** 48 **D)** 46

13. **Aşağıdaki şekillerin hangisinin çevre uzunluğu diğerlerinden farklıdır?**

A)

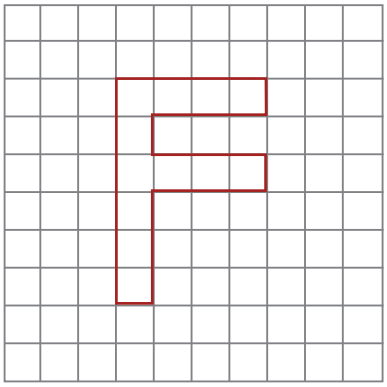

B)

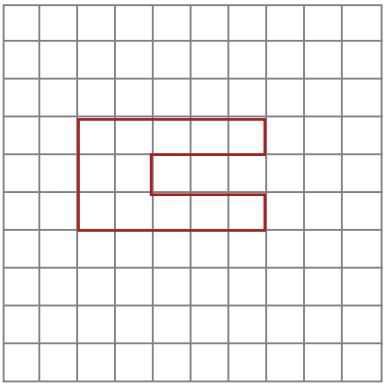

C)

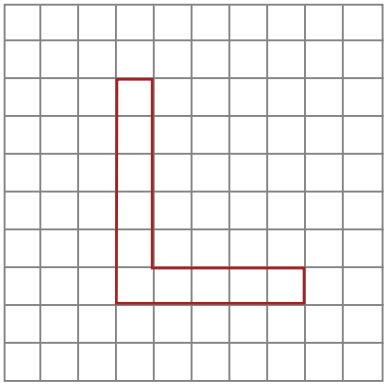

D)

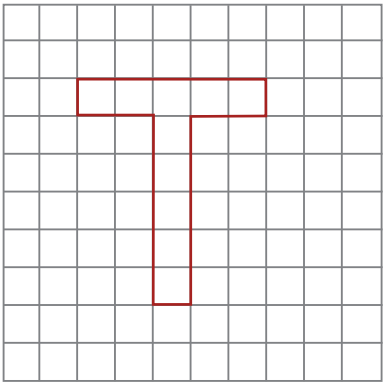

14.

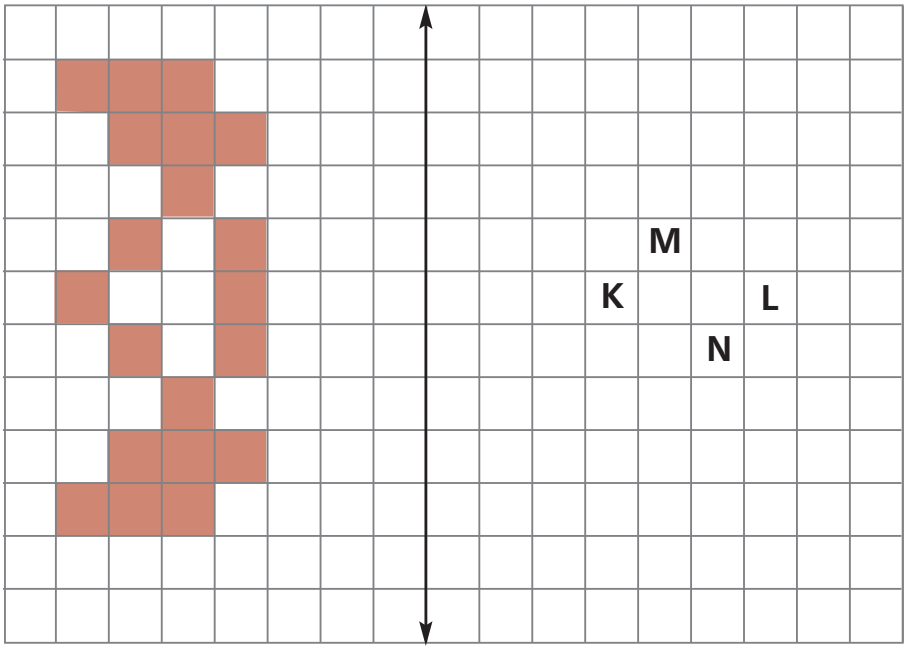

Yukarıdaki kareli kağıtta verilen şeklin doğruya göre yansıması çizildiğinde hangi kare boyanmaz?

A) K **B)** L **C)** M **D)** N

15.

5600 mm = 56 cm	17 km > 1700 m
61 m < 610 cm	100 cm = 10 mm

Yukarıdaki şekilde doğru olan ifadelerin bulunduğu kutular boyanırsa aşağıdaki görüntülerden hangisi elde edilir?

A)

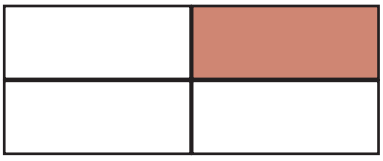

B)

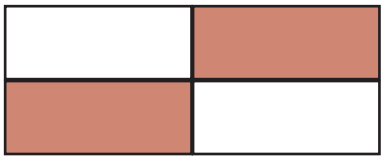

C)

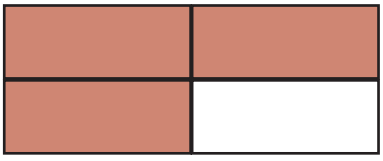

D)

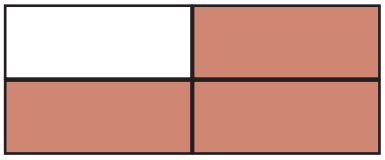

16. Yeni doğmuş olan Ali'nin kütlesi 3 kg 200 gramdır.

İlk ay 400 gram vermiş, ikinci ay 900 gram almıştır.

Buna göre Ali'nin 2. ay sonundaki kütlesi ne kadardır?

A) 4 kg 500 g

B) 4 kg 200 g

C) 3 kg 900 g

D) 3 kg 700 g

17. Bir manav, tezgahtaki elmaların birinci gün $\frac{3}{20}$ 'sini, ikinci gün yarısını satmıştır.

Geriye elmaların kaçta kaçı kalmıştır?

A) $\frac{13}{20}$ **B)** $\frac{11}{20}$

C) $\frac{9}{20}$ **D)** $\frac{7}{20}$

18.

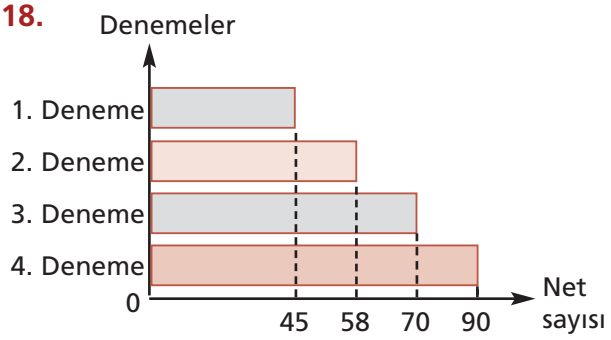

Yukarıdaki grafik Esra'nın 100 soruluk deneme sınavında yaptığı netleri göstermektedir.

Grafiğe göre aşağıdakilerden hangisi <u>yanlıştır</u>?

A) Esra 4. deneme sorularının tamamını doğru çözmüştür.

B) Esra'nın başarısı sürekli artmıştır.

C) Esra'nın 4. denemede yaptığı net sayısı 1. denemede yaptığı net sayısının iki katı kadardır.

D) Esra 2. denemede 58 net yapmıştır.

19.

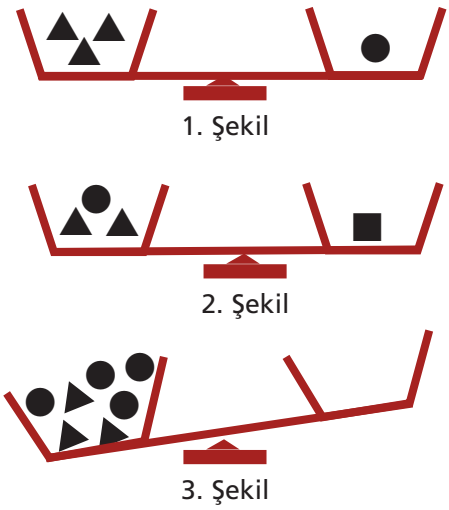

1. ve 2. şekilde dengede olan iki terazi görülmektedir.

Buna göre 3. şekildeki terazinin dengede olması için boş kefeye kaç tane ■ konulmalıdır?

A) 2 **B)** 3 **C)** 4 **D)** 5

20.

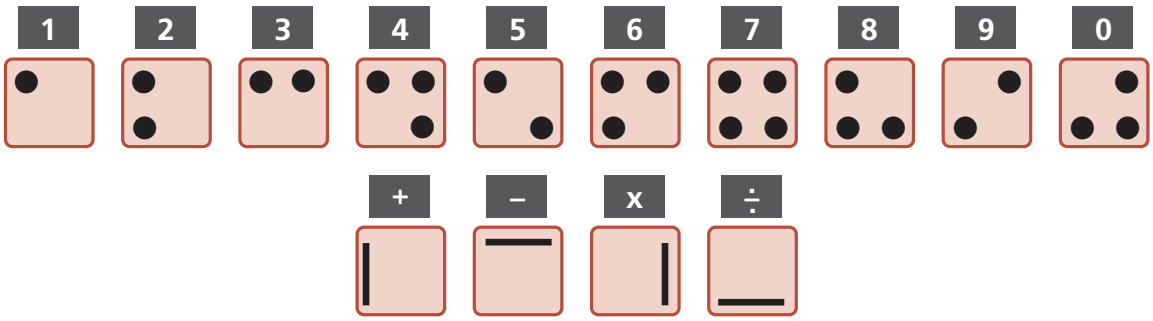

Yukarıda rakamların ve dört işlemin farklı gösterimleri verilmiştir.

Buna göre aşağıdaki işlemlerden hangisinin sonucu diğerlerinden farklıdır?

A)

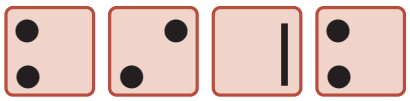

B)

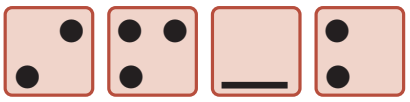

C)

D)

1. Acaba Allah'tan nasıl vahiy alıyorlar? Neden onlar da bizim gibi bir insan? Allah'tan kendilerine bildirileni insanlara anlatmazlarsa ne olur?

Bu soruları araştıran bir öğrenci aşağıdaki konulardan hangisini merak ediyordur?

A) Allah'ı
B) Melekleri
C) Peygamberi
D) Ahiret hayatını

2. Peygamberimiz çocukluğunda ve gençliğinde cahiliye kötülüklerinden uzak durmuştur. Ne çocukluğunda ne de gençliğinde asla putlara el sürmemiş ve onlara saygı göstermemiştir. Onların Allah'la insanlar arasında bir aracı olduğunu kabul etmemiştir. Arapların çoğunun yaptığı gibi yapmamış, onlara ibadet etmemiştir.

Bu paragraftan aşağıdaki sonuçlardan hangisine ulaşılabilir?

A) Peygamberimiz hayatında hiç put görmemiştir.
B) Peygamberimiz putların ne olduğunu bilmiyordu.
C) Peygamberimiz Arapların çoğunun inandığı gibi inanıyordu.
D) Peygamberimiz putlara ibadet etmemiş, onlara saygı göstermemiştir.

3. **Aşağıdakilerden hangisi Peygamberimizin doğduğu ve yaşadığı çevrenin özelliklerinden <u>değildir</u>?**

A) Kadınlar ve kız çocuklarına değer verilirdi.
B) Yaygın olarak dini inanış puta tapıcılıktı.
C) Yerleşik Araplar tarım ve ticaretle, göçebe Araplar hayvancılıkla uğraşıyordu.
D) Yeni doğan bebeklerin süt anneye verilmesi geleneği yaygındı.

4. Osmanlı toplumu, İslami kültüre sahip olduğu için temizliğe çok önem verirdi. Özellikle Fatih Sultan Mehmet'le birlikte İstanbul'da temizlikle ilgili çok önemli kararlar alınmıştı. Fatih Sultan Mehmet yayınlamış olduğu bir kanunda "yoldaki pis görüntülü tükürüklerin üzerine kül atılarak temizlenmesi" emrini vermişti.

Fatih Sultan Mehmet'in bu emri aşağıdaki temizlik türlerinden hangisiyle ilgilidir?

A) Beden temizliği
B) Çevre temizliği
C) Kalp temizliği
D) Elbise temizliği

5. Günlük hayatımızda kullandığımız ifadelerden bazıları dinin etkisiyle dilimize yerleşmiştir. İslam Dini kültürümüzü, mimarimizi etkilediği gibi dilimizi de etkilemiştir.

Aşağıdaki cümlelerin hangisinde dinin etkisiyle dilimize yerleşmiş bir ifade yoktur?

A) Allah'tan umut kesilmez.
B) Alınteriyle helal kazanç elde etmek gerekir.
C) Sokak hayvanlarını doyurmak çok sevaptır.
D) Yatmadan önce birbirimize "iyi geceler" demeliyiz.

6. (1) Kabe hakemliği
(2) Hz. Hatice ile evliliği
(3) Mescid'i nebevî (Peygamber mescidi)'nin yapımı
(4) Vefatı (ölümü)

Bu olaylardan hangileri Peygamberimizin Mekke yıllarında yaşadığı olaylardandır?

A) Yalnız 1 **B)** Yalnız 4
C) 1, 2 **D)** 3, 4

7. Temizliğin maddi (dış), manevi (iç) olmak üzere iki türü vardır.

Aşağıdakilerden hangisi manevi temizliğe örnektir?

A) Tövbe etmek
B) Dişlerimizi fırçalamak
C) Meyveleri bol su ile yıkamak
D) Yerlere çöp atmamak

8. Peygamberimiz zamanında insanlardan bazıları üzerin bindikleri develeri koltuk niyetine kullanıyor, onların da bir can taşıdığını unutarak saatlerce üzerinde sohbet ediyorlardı. Taşıyamayacağı kadar fazla yük taştıp onlara eziyet ediyorlardı. Peygamberimiz yorgunluktan çöktüğü yerden kalkmakta zorlanan bir deveyi görünce, devenin sahibine şöyle dedi: "Allah bu dilsizler hakkında çok daha hayırlı olmanızı tavsiye etmektedir. Onlara güçleri kadar yük yükleyin."

Aşağıdakilerden hangisi bu paragraftan çıkarılamaz?

A) Hayvanlara yorgunken yük taşıtmamalıyız.
B) Hayvanların da bir can taşıdığını unutmamalıyız.
C) Hayvanların üzerindeyken hiç konuşmamalıyız.
D) Allah hayvanlara iyi davranmamızı istemiştir.

9. **Kur'an-ı Kerim'le ilgili aşağıdaki bilgilerden hangisi yanlıştır?**

A) 610 yılının Ramazan Ayı'nda indirilmeye başlamıştır.

B) Kur'an'da 114 sure vardır.

C) Kur'an 30 cüzden oluşur.

D) Kur'an surelerinin tamamı besmeleyle başlar.

10. Peygamberimiz ailesine samimi, içten davranan, değer verdiğini hissettiren bir aile reisiydi. Sevinçleriyle sevinir, üzüntüleriyle üzülürdü. Onlarla sevgi, saygı ve nezaket içerisinde bir ilişki kurardı.

Aşağıdaki hadislerden hangisi bu paragrafa en uygun örnektir?

A) "Doğruluktan ayrılmayınız! Doğruluk iyiliğe, iyilik de Cennet'e götürür."

B) "Mü'minlerin iman bakımından en üstünü ahlakı en güzel olanıdır."

C) "Bir müslümanın bir başkasıyla üç günden fazla küs kalması doğru olmaz."

D) "Sizin en iyiniz, ailesine karşı en iyi davrananınızdır. Ben de aileme karşı en iyi davranıyorum."

11. Ömer arkadaşları ve öğretmenleri tarafından çok sevilen, davranışlarından övgüyle bahsedilen bir öğrencidir.

Buna göre Ömer'in aşağıdaki davranışlardan hangisini yapması beklenmez?

A) Tutumlu olmak

B) Kibirli olmak

C) Cömert olmak

D) Verdiği sözde durmak

12. "Allahümme salli ala seyyidina Muhammedin ve ala ali muhammed."

Dinimizde "salavat" olarak bilinen bu dini ifadenin anlamı aşağıdakilerden hangisidir?

A) Allah'ın selamı, rahmeti ve bereketi Hz. Muhammed'in (sav.) ve ailesinin üzerine olsun.

B) Allah'tan başka ilah yoktur. Hz. Muhammed (sav.) O'nun elçisidir.

C) Ben tanıklık ederim ki, Allah'tan başka ilah yoktur ve Hz. Muhammed (sav.) O'nun kulu ve elçisidir.

D) Allah en büyüktür.

13.

"Kıyamet gününde biz adalet terazilerini kurarız. Hiç kimseye en küçük bir haksızlık edilmez."

(Enbiya suresi, 47. ayet)

Bu ayet aşağıdaki imanın şartlarından hangisi ile ilgilidir?

A) Allah'a iman
B) Peygamberlere iman
C) Ahiret gününe iman
D) İlahi kitaplara iman

14. İslam Dini'nin beş temel esası vardır. Bunlara İslam'ın şartları denir.

Aşağıdakilerden hangisi İslam'ın şartlarındandır?

A) Bir fakire sadaka vermek.
B) Kelim-i şehadet getirmek.
C) Çalışmak, helal kazanç elde etmek.
D) Allah'ın varlığına ve birliğine inanmak.

15. Aşağıdakilerden hangisi Peygamberimizin aile büyüklerinden biri <u>değildir</u>?

A) Ömer
B) Abdullah
C) Amine
D) Ebu Talip

16. Seher Teyzem'in yeni bebeği oldu. O'nu görmeye giderken çok heyecanlıydım. Çok güzel bir bebekti. Mis gibi kokuyordu."<u>Nazar değmesin</u>" dedi annem.

Bu paragrafta altı çizili cümle yerine aşağıdaki dini ifadelerden hangisini kullanabiliriz?

A) Elhamdülillah
B) Maşallah
C) Bismillah
D) Allahüekber

17. Aşağıdaki davranışlardan hangisi "sevap" davranışlardandır?

A) Çevreyi kirletmek.

B) Komşuları rahatsız etmek.

C) Engelli insanlara yardım etmek.

D) İnsanlarla alay etmek.

18. Dinimiz insanları iyiye ve güzele yönelterek onların mutlu olmalarını amaçlar. Toplum içerisinde huzurlu ve mutlu olabilmesi için güzel ahlaklı olmasını tavsiye eder. Kur'an-ı Kerim güzel ahlak davranışlarının neler olduğunu açıkça anlatmış, Peygamberimiz de hayatında bu davranışları uygulayarak bize örnek olmuştur.

Aşağıdaki ayetlerden hangisi güzel ahlak davranışları ile ilgili bir örnek <u>değildir</u>?

A) "Göğü Allah yükseltti ve mizanı (dengeyi) o koydu." (Rahman suresi, 7. ayet)

B) "... Emrolunduğun gibi dosdoğru ol! ..." (Hud suresi, 112. ayet)

C) "O takva (sorumluluk) sahipleri ki... Öfkelerini yenerler ve insanları affederler. Allah da güzel davranışta bulunanları sever." (Al-i İmran suresi, 134. ayet)

D) "... Anne babaya, akrabaya, iyi davranın..." (Nisa suresi, 36 ayet)

19.

"Temizlik imanın yarısıdır."

(Hadis-i Şerif)

Aşağıdaki davranışlardan hangisi bu hadise uygun <u>değildir</u>?

A) Yemekten önce ve sonra elleri yıkamak.

B) Ağız ve diş bakımına özen göstermek.

C) Kişisel bakımımıza dikkat etmek, giysilerimizi temiz tutmak.

D) Evimizde yerlere çöp atmayıp okulda ve dışarıda yerlere çöp atmak.

20. Aşağıdaki ibadetlerden hangisi "İslam'ın şartları" arasında <u>değildir</u>?

A) Namaz kılmak

B) Oruç tutmak

C) Kurban kesmek

D) Zekat vermek

1.

		Neyin etrafında?		
		Güneş	Dünya	Ay
Ne?	Güneş		✔	
	Dünya	✔		✔
	Ay	✔	✔	

Yukarıdaki dolanma hareketlerinden kaç tanesi yanlış işaretlenmiştir?

A) 1 **B)** 2
C) 3 **D)** 4

2. ***Can:*** Dünya'nın Güneş etrafında bir tam dolanımı için geçen süredir.

Aral: Dünya'nın Güneş etrafında dolanması ile oluşur.

Deniz: Dünya'nın kendi çevresinde bir tam dönmesi için geçen süredir.

Öğrenciler aşağıdakilerden hangisinin tanımını yapmamıştır?

A) Ay
B) Gün
C) Mevsimler
D) Yıl

3. **Bir fosil bilimcinin incelediği fosil örneği ile ilgili aşağıdaki öğrencilerden hangisinin söylediği yanlıştır?**

A) ***Utku:*** Canlının yaşadığı dönemle ile ilgili bilgi verir.
B) ***Emre:*** Canlının sert kısımlarından oluşur.
C) ***Elif:*** Canlının yaşadığı dönemin iklim şartlarıyla ilgili bilgi vermez.
D) ***Toprak:*** Oluştuğu kayaçtan ayrılmayacak şekilde bulunabilir.

4.

Arda

Öğle yemeğinde hamburger, kızarmış patates ve çikolata yedim.

Arda'nın öğünü için

I. Enerji vermeyen besinler tüketmiştir.
II. Dengeli beslenme için uygun değildir.
III. Aldığı fazla karbonhidrat vücudunda yağ olarak depolanır.

yorumlarından hangileri yapılabilir?

A) Yalnız I
B) I ve II
C) I ve III
D) II ve III

5. Oyuncak arabaya mıknatıs bağlandıktan sonra başka bir mıknatısla arabanın geriye doğru gitmesi isteniyor.

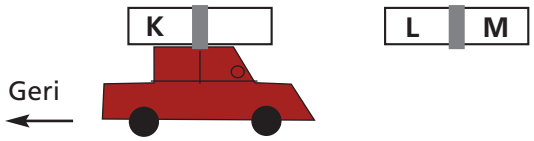

Buna göre K, L ve M'nin kutup cinsi aşağıdakilerden hangisi olabilir?

	K	L	M
A)	N	N	S
B)	N	S	N
C)	S	S	N
D)	S	N	N

6. **Kullanmadığınız kağıt, gazete ve dergilerin geri dönüşümü ile ilgili aşağıdaki ifadelerden hangisi <u>yanlıştır</u>?**

A) Doğadaki atık maddelerin artmasına sebep olur.

B) Çevre kirliliğinin oluşmasını engeller.

C) Ağaçlık alanların azalmasını önler.

D) Ülke ekonomisine katkı sağlar.

7. Şekildeki hız treni K noktasından serbest bırakılmaktadır.

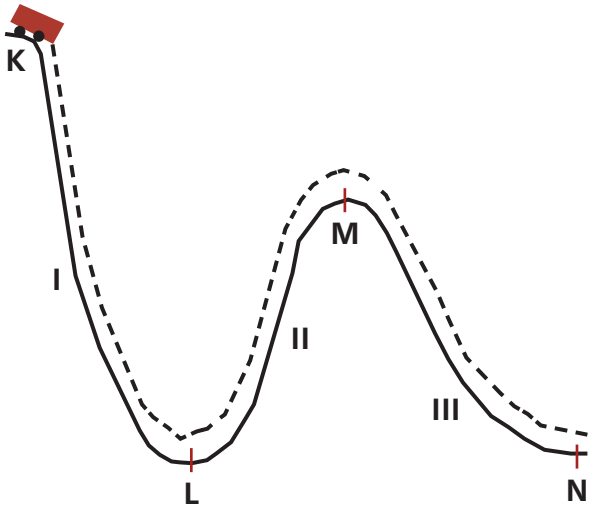

Buna göre bu trenin I, II ve III aralıklarında yapacağı hareketin çeşitleri nelerdir?

(Sürtünmeler önemsizdir.)

	I.	*II.*	*III.*
A)	Hızlanan	Hızlanan	Hızlanan
B)	Hızlanan	Yavaşlayan	Yavaşlayan
C)	Hızlanan	Yavaşlayan	Hızlanan
D)	Yavaşlayan	Hızlanan	Yavaşlayan

8. Binalarda ses yalıtımı iyi yapılmalıdır. Böylece ses kirliliği engellenebilir.

Aşağıdakilerden hangisi bu amaçla yapılan uygulamalardandır?

A) Binanın yol kenarına yapılması

B) Pencerelerin büyük ve çok sayıda olması

C) Bina kapısına sesi uzaktan duyulabilen alarm cihazı takılması

D) Duvarların içine köpük, cam yünü gibi malzemeler yerleştirilmesi

9.

Sigara ile ilgili olarak aşağıdaki ifadelerden hangisi yanlıştır?

A) Dumanı, içmeyenleri de etkiler.
B) Açık havada içilirse zararı olmaz.
C) Akciğerleri olumsuz etkiler.
D) Aile ekonomisini olumsuz etkiler.

10.
- Boş plastik şişe suda yüzer.
- Madeni para suda batar.
- Talaş suda batar.
- Demir bilye suda yüzer.
- Gümüş yüzük suda yüzer.

Verilen ifadelerden kaç tanesi doğrudur?

A) 2 **B)** 3
C) 4 **D)** 5

11. Arda, verilen maddeleri masanın üzerine koyup mıknatısla çekmeye çalışıyor.

▲
Demir anahtar

■ 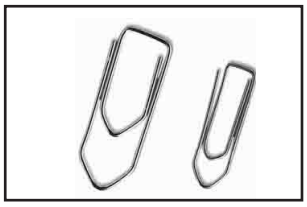
Ataç

● 
Silgi

Buna göre Arda'nın mıknatısla çekeceği maddeler aşağıdakilerden hangisidir?

A) ▲ ve ■
B) ▲ ve ●
C) ■ ve ●
D) ▲, ■ ve ●

12. Kuru kumun hacmini ölçmek için aşağıdaki aletlerden hangisi kullanılır?

A) Eşit kollu terazi
B) Elektronik terazi
C) Termometre
D) Dereceli silindir

13.



Odayı iyi aydınlatması istenen avizenin iç yüzeyi için,

I. Düz, parlak yüzey

II Pürüzlü, mat yüzey

III. Beyaz renk, pürüzsüz yüzey

malzemelerden hangileri seçilebilir?

A) Yalnız I **B)** I ve II

C) I ve III **D)** II ve III

14.
- K'nın belirli bir şekli ve hacmi vardır.
- L ısıtıldığında gaz haline geçer.
- M'nin belirli bir şekli ve hacmi yoktur.

Yukarıda maddenin farklı fiziksel halleri olan K, L, M'ye ait bazı özellikler verilmiştir.

Buna göre aşağıdakilerden hangisinde K, L, M doğru olarak sınıflanmıştır?

	K	L	M
A)	Sıvı	Gaz	Katı
B)	Gaz	Sıvı	Katı
C)	Katı	Sıvı	Gaz
D)	Katı	Gaz	Sıvı

15.

Madde	Saf Madde	Karışım
Şeker		
Musluk Suyu		
Limonata		
Bakır		

Verilen tablo doğru şekilde doldurduğunda aşağıdakilerden hangisine ulaşılır?

A)

	✔
✔	
✔	
	✔

B)

✔	
✔	
	✔
✔	

C)

	✔
	✔
✔	
✔	

D)

✔	
	✔
	✔
✔	

16.

Pirinç + Su	Mıknatısla ayırma
Demir tozu + Tuz	Eleme
Tuz + Nohut	Süzme

Karışık olarak verilen karışımlar ve bunları ayrıştırma yöntemlerini doğru şekilde eşleştirdiğimizde aşağıdakilerden hangisine ulaşırız?

A)

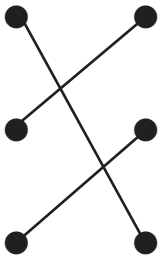

B)

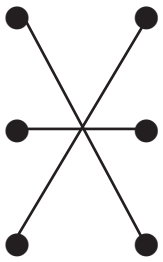

C)

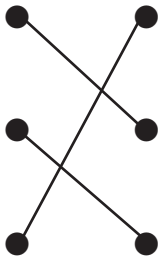

D)

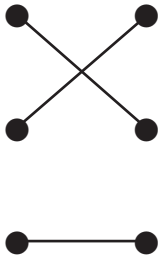

17. 25 °C sıcaklıktaki suyla dolu olan bir bardak şekildeki gibi içinde buz bulunan bir kaba konuluyor ve bir süre bekletiliyor.



Buna göre bardaktaki suyun son sıcaklığı aşağıdakilerden hangisi olabilir?

A) 15 °C
B) 25 °C
C) 30 °C
D) 35 °C

18. Öğretmen öğrencilerinden besinlerde su bulunduğunu örnekler vererek açıklamalarını ister.

Aşağıdakilerden hangisi bu durumu açıklayan doğru bir örnek olamaz?

A) Kesilen salatalıktan su çıkması.
B) Limonu sıktığımızda suyunun çıkması.
C) Makarnanın pişirilirken üzerine su eklenmesi.
D) Açıkta bırakılan ekmeğin bir süre sonra kuruması.

19. Besinler, yapılarında en fazla bulunan besin içeriğine göre gruplandırılır. Örneğin balıkta protein diğer içeriklerden daha fazla olduğu için balık protein içerir denir. Protein içerikli besinlerin vücuttaki görevlerinden biri yaraların iyileşmesine yardımcı olmaktır.

Bu bilgiye göre vücudumuzda oluşan bir yaranın iyileşmesine yardımcı olmak için aşağıdaki verilen besinlerden hangisinin tüketilmesi uygundur?

A)

Makarna

B)

Et

C)

Yaş Pasta

D)

Ekmek

20.

Devrede elektriği iletir.	Pil
Devreye elektrik enerjisi sağlar.	Ampul
Elektrik enerjisini ışık enerjisine çevirir.	Bakır kablo

Verilen devre elemanları ile görevlerini eşleştirdiğimizde aşağıdaki görüntülerden hangisine ulaşırız?

A)

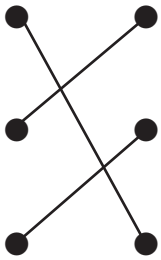

B)

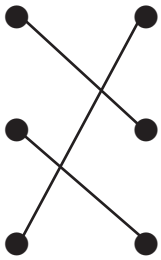

C)

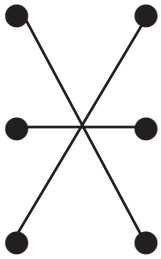

D)

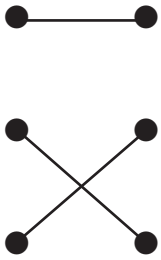

1.

1. Okula başladım.
2. Yürümeye başladım.
3. Dördüncü sınıfa başladım.
4. Konuşmaya başladım.

Yukarıda 4. sınıfta okuyan Buğra'nın hayatındaki önemli gelişmeler verilmiştir.

Buna göre verilen gelişmelerin kronolojik olarak sıralaması aşağıdakilerden hangisinde doğru olarak verilmiştir?

A) 1-2-3-4
B) 2-3-4-1
C) 2-4-1-3
D) 1-4-3-2

2.

Bu kimlik kartında numaralarla gösterilen bölümlerde yazan bilgilerden hangisi başka insanların kimlik kartında bulunamaz?

A) I
B) II
C) III
D) IV

3.

	Futbol	Tenis	Resim
Selçuk	✔		✔
Şeyma		✔	
Selin			✔

Yukarıdaki tabloda Selçuk, Şeyma ve Selin'in ilgi duyduğu alanlar ifade edilmiştir.

Buna göre tablodaki bilgilerden yararlanarak aşağıdakilerden hangisine ulaşılamaz?

A) Selçuk ve Selin resme ilgi duymaktadır.
B) Şeyma sadece tenise ilgi duymaktadır.
C) Selçuk hem futbol hem de resme ilgi duymaktadır.
D) Tek bir tane alana ilgi duyan yoktur.

4. **Aşağıda resimleri verilen oyunlardan hangisi geleneğimizde yer almaz?**

A)

Çelik çomak oyunu

B)

Büyük fener oyunu

C)


9 Taş oyunu

D)

Misket oyunu

5. I.

II.

III.

IV.

Yukarıdaki görsellerden hangisi büyüklerimizin çocukluk yıllarındaki eşyaları arasında <u>yer almaz</u>?

A) Yalnız I **B)** I ve II
C) I ve III **D)** II ve III

6. Milli Mücadele sonrasında imzalanan Lozan Barış Antlaşması ile Yeni Türk Devleti'nin sınırları çizilmiş, Türk halkı özgürlüğünü kazanmıştır.

Bu parçadan hareketle;

I. Türk milletinin Millî Mücadele hareketinden başarı ile çıktığına,
II. İşgalci güçlerin Anadolu'daki etkinliğinin sonlandırılamadığına,
III. Yeni Türk Devleti'nin sınırlarının daraldığına

verilenlerden hangilerine ulaşılabilir?

A) Yalnız I **B)** I ve II
C) II ve III **D)** I, II ve III

7.

Uyan Şahin uyan uyanmaz mısın?
Diz çöküp düşmana dayanmaz mısın?

Şiirde bahsedilen Şahin Bey aşağıdaki cephelerden hangisinde düşmana karşı ilini savunmuştur?

A) Doğu cephesi
B) Batı cephesi
C) Güney cephesi
D) Çanakkale cephesi

8.

Hava olayı	*Görüldüğü Toplam Gün Sayısı*
	11
	6
	5
	8

Beyazıt bir ay boyunca bulunduğu ilin hava olaylarını gözlemleyerek bir tablo oluşturmuştur.

Buna göre verilen tablodan hareketle aşağıdakilerden hangisine <u>ulaşılamaz</u>?

A) Hava genellikle güneşlidir.
B) Rüzgarlı gün sayısı bulutlu gün sayısından azdır.
C) Bulutlu gün sayısı yağmurlu gün sayısından fazladır.
D) 5 gün yağmur görülmektedir.

9.

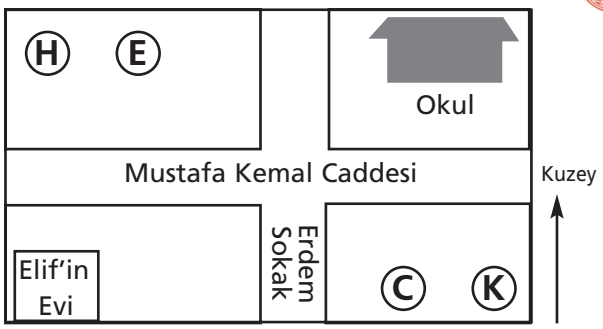

H Hastane E Eczane

C Cami K Karakol

Bu krokide Elif'in evi okulun hangi yönündedir?

A) Güneyinde

B) Güney batısında

C) Kuzeyinde

D) Kuzey batısında

10. Aşağıda verilenlerden hangisi dünyada hava kirliliğinin artmasına neden olmuştur?

A)

B)

C)

D)

11.

Orta Asya'da yaşayan Türkler çeşitli sebeplerle dünyanın farklı bölgelerine göç etmişlerdir.

Buna göre göç esnasında göçü kolaylaştıran unsur aşağıdakilerden hangisidir?

A) Yay

B) Tekerlek

C) Ok

D) Kılıç

12. Bilim insanları doğadan ve çevreden esinlenerek yeni tasarımlar yapmışlardır.

Buna göre görseli verilen yunustan hareketle hangi teknolojik ürün üretilmiştir?

A) Helikopter

B) Otomobil

C) Füze

D) Gemi

13.

1. 2. 3.

Yukarıda verilen zeytinin yolculuk aşamasının doğru sıralanışı aşağıdakilerden hangisidir?

A) 1, 2, 3 **B)** 2, 1, 3
C) 1, 3, 2 **D)** 2, 3, 1

14.

Görseldeki mutfak eşyalarını tasarruflu kullanabilmek için yapılacaklar arasında aşağıdakilerden hangisi yer almaz?

A) Fırın sürekli açık bırakılmalı
B) Elektrikli aletler gereksiz yere kullanılmamalı
C) Buzdolabın kapısı açık bırakılmamalı
D) Bulaşık makinesinin içi tam dolmadan çalıştırılmamalı

15.



Sibel Hanım parasını temel ihtiyaçları için harcamak istiyor.

Buna göre Sibel Hanım öncelikle yukarıdakilerden hangilerine gitmelidir?

A) Tatil-kasap
B) Kasap-market
C) Kuaför-market
D) Tatil-kuaför

16.

John

İsmim John. Fransa'da yaşıyorum. Sınıfım 10 kişilik. Okulun sosyal tesislerinden yararlanabiliyorum ve istediğim oyunları oynayabiliyorum.

Bu bilgiye göre John'un yaşadığı ülke ile ilgili aşağıdakilerden hangisine ulaşılabilir?

A) Aileler çocuk haklarına gereken özeni göstermemektedir.
B) Çocuk hakları ihlalleri görülmektedir.
C) Çocuklar haklarını kullanabilmektedir.
D) Fransa'da herkes devlet okuluna gitmektedir.

17. Okullarda eğitsel sosyal kulüplere katılan öğrencilerin kazandığı özellikler ile ilgili;

I. Düzenli çalışma alışkanlığı kazanılır.

II. İşbirliği ve dayanışma ruhu kazanılır.

III. Grupla iletişim artar.

verilenlerden hangileri doğrudur?

A) Yalnız I

B) I ve II

C) I ve III

D) I, II ve III

18. Atatürk'ün aşağıda verilen sözlerinden hangisi egemenlik ile ilişkilendirilebilir?

A) "Türk, öğün, çalış güven"

B) "Geldikleri gibi giderler."

C) "Ya istiklal ya ölüm"

D) "Egemenlik kayıtsız şartsız milletindir."

19.

Jean

Merhaba ben Jean. Yaşadığım ülke kurulmadan önce Aborjin yerlileri bu topraklarda yaşamış. Kanguru ve Koala da bu topraklarda yaşayan hayvanlardır.

Buna göre Jean'ın yaşadığı ülke hangi kıtada yer alır?

A) Avustralya

B) Amerika

C) Asya

D) Avrupa

20.

Görselde verilen Türkiye'nin komşularından hangisi Türkiye'nin kuzeybatısında yer alır?

A) Bulgaristan

B) İran

C) Suriye

D) Gürcistan

ŞEHİT AHMET ÖZSOY KIZ ANADOLU İMAM HATİP LİSESİ

2016

ŞEHİT AHMET ÖZSOY KIZ ANADOLU İMAM HATİP LİSESİ
2019-2020 EĞİTİM ÖĞRETİM YILI İÇİN 5.SINIF SINAVI CEVAP ANAHTARI

SORULAR	DERSLER				
	TÜRKÇE	MATEMATİK	DİN	FEN	SOSYAL
1	D	A	C	B	C
2	B	C	D	A	A
3	A	D	A	C	D
4	D	C	B	D	B
5	C	C	D	B	A
6	A	B	C	A	A
7	D	C	A	C	C
8	D	B	C	D	B
9	C	C	D	B	B
10	D	D	D	A	C
11	B	B	B	A	B
12	B	B	A	D	D
13	C	A	C	C	C
14	D	C	B	C	A
15	D	A	A	D	B
16	C	D	B	A	C
17	C	D	C	A	D
18	B	A	A	C	D
19	D	B	D	B	A
20	D	A	C	A	A